LKPD

LEMBAR KERJA PESERTA DIDIK

KELAS 3

TEMA 3

SUBTEMA 4

PEMBELAJARAN 5

KEAJAIBAN PERUBAHAN WUJUD DISEKITARKU

NAMA :

NO. ABSEN :

LIVEWORKSHEETS

KEGIATAN 1

Urutkan proses terjadinya hujan sesuai penjelasan yang kamu dengar dengan memindahkan gambar ke dalam kotak bernomor!

1

3

2

4









LIVEWORKSHEETS

Setelah mengurutkan proses terjadinya hujan, jelaskan apa yang terjadi dari setiap nomornya. Tuliskan pada kolom berikut! Jangan lupa sesuaikan dengan nomornya ya?

1

3

2

4

Padukan kalimat dalam dari setiap kolom di atas menjadi satu paragraf. Urutkan sesuai nomornya ya anak-anak.



LIVEWORKSHEETS

SOAL

Untuk mengukur kemampuan kalian, kerjakan soal berikut dengan benar!

1. **Air di permukaan bumi mengalami penguapan karena panas matahari. Air yang mengalami penguapan berubah menjadi ... .**
   - **a. awan**
   - **b. hujan**
   - **c. uap air**
   - **d. titik-titik air**
2. **Dila membantu ibu menjemur pakaian . Setelah dijemur, pakaian yang semula basah menjadi kering. Peristiwa perubahan wujud yang terjadi sama dengan proses terjadinya hujan pada tahap ....**
   - **a.Angin meniup awan ke daratan**
   - **b.Air hujan mengalir ke permukaan tanah**
   - **c.Air laut menguap terkena panas matahari**
   - **d.Uap air membentuk titik-titik air**

LIVEWORKSHEETS