Trường Tiểu học Đoàn Thị Điểm – HN
Lớp: 1
Họ tên:……..

PHIẾU HỌC TẬP

Môn Toán – Tuần 7

Bài 1: >, <, = ?

8 ☐ 8 4 ☐ 0 7 ☐ 9

3 ☐ 9 2 ☐ 6 10 ☐ 5

Bài 2: Số ?

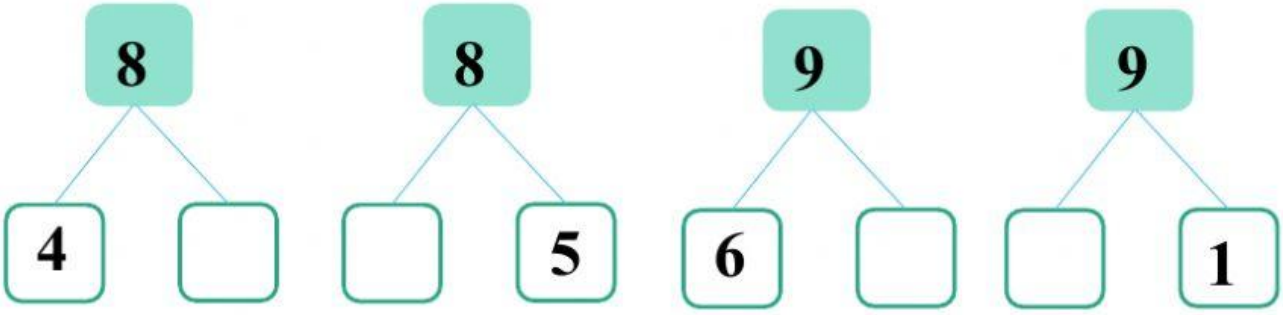

Bài 3: Nối số vào ô trống cho phù hợp:

7 < ☐ 5 = ☐ 8 > ☐ > 6

5 7 8

LIVEWORKSHEETS

Bài 4: Sắp xếp các số: 8; 2; 5; 9; 0 theo thứ tự từ :

a) Bé đến lớn:

b) Lớn đến bé:

Bài 5: Xếp hình vào vị trí phù hợp:



Bài 6: Đúng chọn Đ, sai chọn S:



A. Số con trâu ít hơn số cái cây. ☐

B. Số ngôi nhà nhiều hơn số đám mây. ☐

C. Số ngôi nhà nhiều hơn số ông mặt trời nhưng ít hơn số cái cây. ☐

LIVEWORKSHEETS