# LA TERRA. REPRENTACIÓ I RELLEU

1. **Escriu el nom del planeta en l'espai corresponent.**

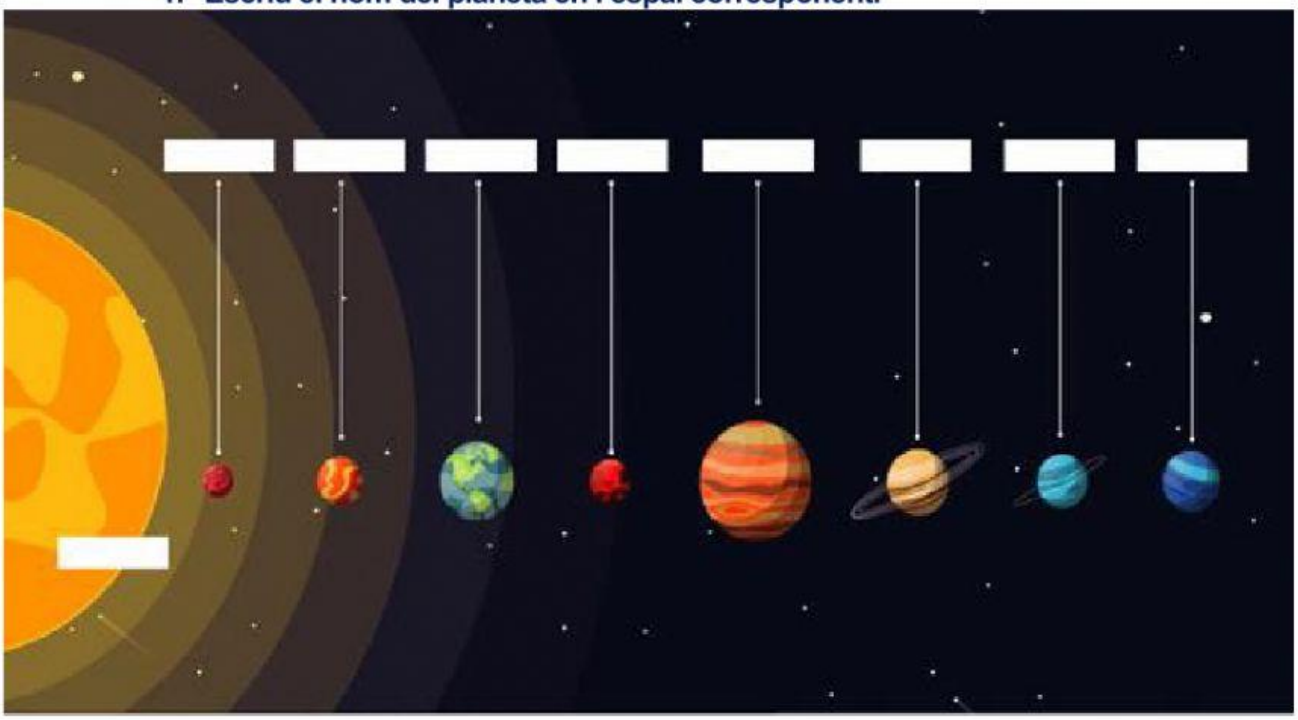

| | | |
|---|---|---|
| Sol | Urà | Mart |
| Mercuri | Neptú | Júpiter |
| Saturn | Terra | Venus |

2. **Com es diu la capa gasosa que envolta la Terra?**

3. **Nom del moviment de la Terra quan gira sobre el seu propi eix?**

4. **Nom del moviment quan la Terra es desplaça al voltant del Sol?**

5. **Cada quants anys s'afig un dia per compensar les hores que sobre, és a dir, cada quants anys hi ha any de traspàs o bixest? (Escriu el número).**

6. **La Terra té forma esfèrica, però no és una esfera perfecta, sinó que està aplatada pels pols. Aquesta forma s'anomena...**

LIVEWORKSHEETS

**7. Escriu el nom corresponent a l'estructura interna de la Terra on cal:**

nucli Escorça Mantell inferior

Atmosfera Mantell superior

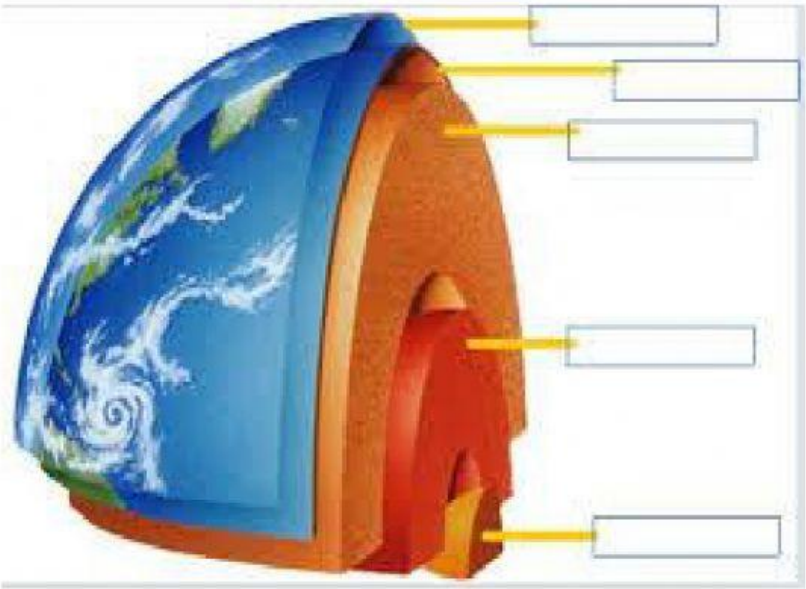

**8. Fica atenció a les coordenades que et done i escriu quina ciutat indiquen:**

Coordenades: 40º N, 0º O

Ciutat:

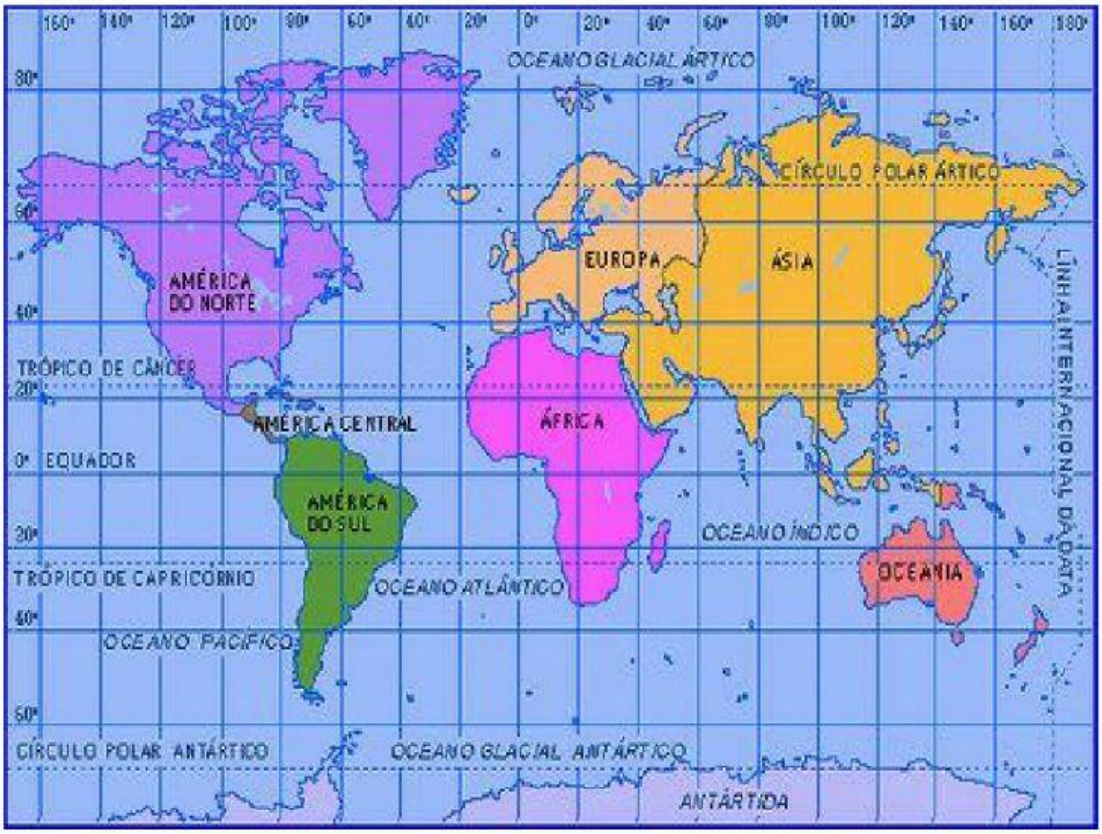


LIVEWORKSHEETS