	Planeación de la clase - EVALUACIÒN	Código	LV-GA-GDA-09-PDC-086
		Página	1 de 1

EVALUACIÒN DE LAS MÀQUINAS

ÁREA O ASIGNATURA: TECNOLOGÌA E INFORMÀTICA

GRADO: 3° FECHA: 14 DE OCTUBRE DE 2021 III PERIODO

1. Responde F o V a las siguientes afirmaciones.

- Una máquina es una herramienta que contiene una o más partes que utiliza la energía para llevar a cabo una determinada acción. ( )
- Existe una sola clase de máquina se le llama: máquina simple ( )
- Las máquinas están normalmente alimentadas por medios mecánicos, químicos, térmicos o eléctricos, y con frecuencia están motorizadas ( )

2. Arrastra el nombre de las diferentes máquinas de manera correcta.

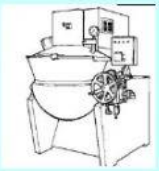

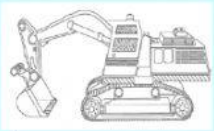

Máquina de juego

Máquina procesadora

MÀQUINA DE COSER

Máquina retroexcavadora

3. Escoge la respuesta correcta:

- Una máquina _____ es aquella que posee un solo punto de apoyo.
- Una máquina _____ es un sistema de trabajo formado por dos o más máquinas simples que están conectadas en serie.
- Las máquinas compuestas están a nuestro alrededor y nos hacen la vida mucho más _____.

4. Escribe una S si es máquina simple o C si es una máquina compuesta:

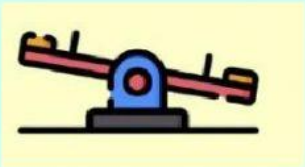

LIVEWORKSHEETS