CLASES DE ÁNGULOS

Prof.: Flabio Tarqui

1. Arrastra las palabras del recuadro indicando las partes del ángulo.

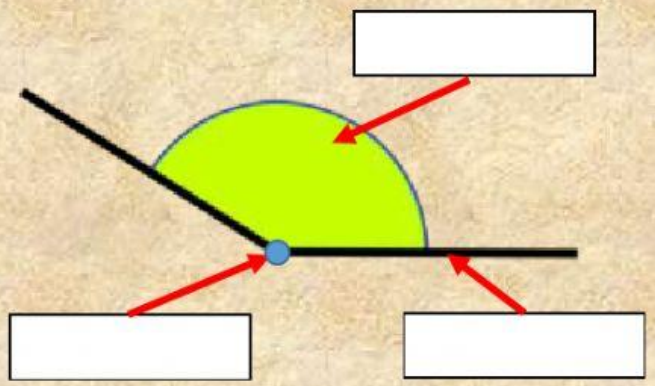

VERTICE

LADO

ÁNGULO

2. Clasifica estos ángulos según sean obtusos, agudos o rectos.

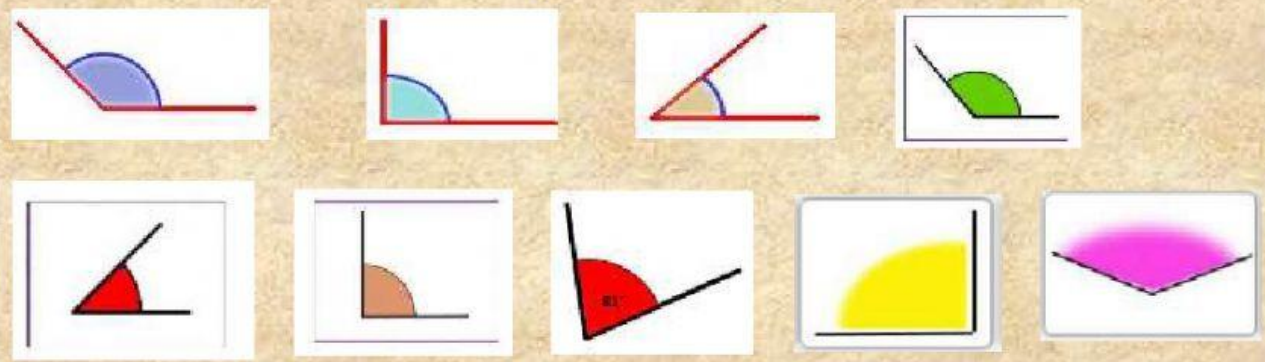

Ángulos agudos	Ángulos rectos	Ángulos obtusos

LIVEWORKSHEETS

3. Clasifica a los ángulos según su medida.

98º		60º	
180º		165	
126º		90º	
17º		189	
145		64º	

4. ¿Qué ángulos forman los rayos?

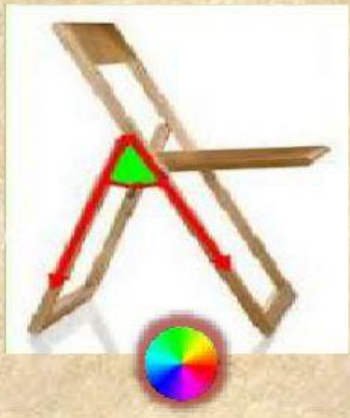



RECTO

AGUDO

OBTUSO

LIVEWORKSHEETS

5. Relaciona según corresponda los ángulos.

El ángulo mide exactamente 180°	ÁNGULO OBTUSO
El ángulo mide exactamente 90°	ÁNGULO AGUDO
El ángulo mide menos de 90°	ÁNGULO LLANO
El ángulo mide más de 90° y menos de 180°	ÁNGULO RECTO

6. Clasifica los ángulos que hay en el interior de esta figura:

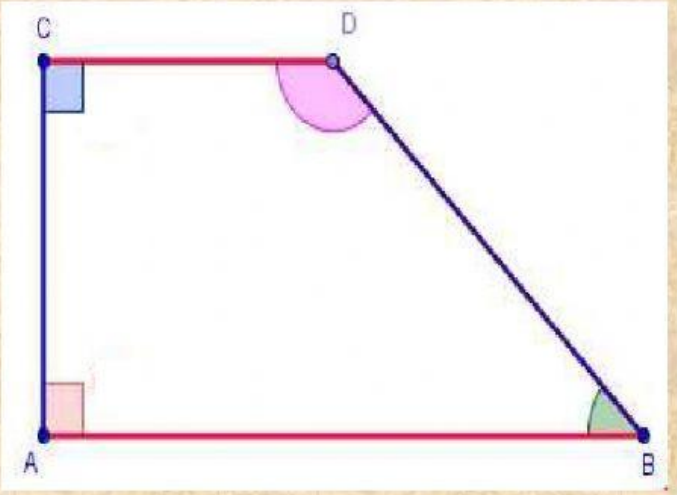

El ángulo (A) es un ángulo _____

El ángulo (B) es un ángulo _____

El ángulo (C) es un ángulo _____

El ángulo (D) es un ángulo _____

LIVEWORKSHEETS