suelve cada problema y marca tu respuesta.

1. ¿Cuál es el número **MENOR**?

38 46

31 25

a 46

b 31

c 25

2. ¿Qué número sigue en la secuencia?

47 45 43 41 ___

a 39

b 40

c 42

LIVEWORKSHEETS

3. Observa las siguientes figuras y responde: ¿quién tiene el mayor número en su camiseta?

a

b

c

4. Observa y responde: ¿Quién o quiénes tienen más de 9 bolitas?

a

b

c

LIVEWORKSHEETS

5. El número 406 es igual a :

- **a** 4 centenas y 6 unidades.
- **b** 4 centenas y 6 decenas.
- **c** 4 decenas y 6 unidades.

6. Un representa una centena.

Un representa una unidad.

¿Qué número representa el dibujo?

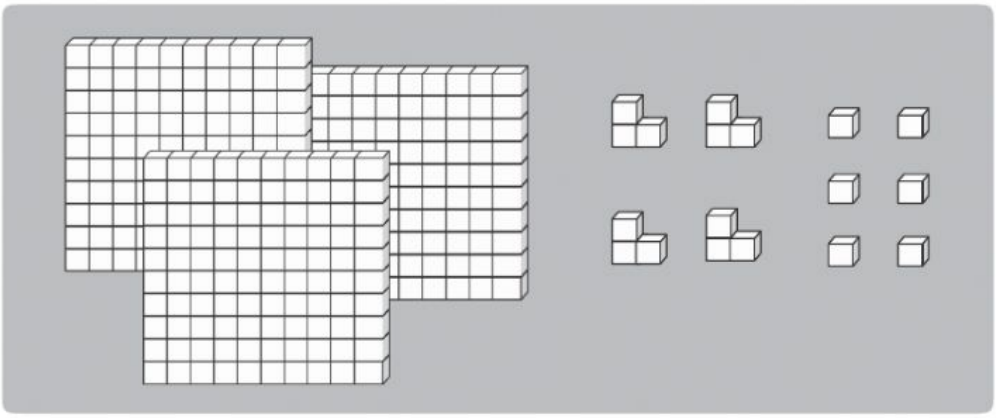

- **a** 310
- **b** 318
- **c** 346

LIVEWORKSHEETS

7. A Rosario le dieron un cuaderno con 48 páginas. Hasta ahora ha utilizado 25 páginas. ¿Cuántas páginas quedan aún sin usar?

a 23

b 25

c 73

8. En la mañana, Pedro tenía algunos soles en el bolsillo. A la salida de la escuela, su papá le dio 5 soles, y ahora tiene 18 soles en el bolsillo. ¿Cuántos soles tenía en la mañana Pedro?

a 5

b 13

c 23

LIVEWORKSHEETS

9. Juana tiene 26 años y Hernán tiene 12 años más que Juana. ¿Cuántos años tiene Hernán?

a 12

b 14

c 38

10. El equipo de Gerardo tiene 13 puntos y el de Alfredo tiene 19 puntos. ¿Cuántos puntos le falta al equipo de Gerardo para tener tantos puntos como el equipo de Alfredo?

a 32

b 19

c 6

LIVEWORKSHEETS

11. Rocío tiene 11 soles. ¿Cuántos soles le faltan para poder comprar la mesa?



a 35

b 24

c 13

Continúe

LIVEWORKSHEETS

12. ¿Cuál es el número que falta en el recuadro?

$$\begin{array}{r} 56 + \\ \square 7 \\ \hline 133 \end{array}$$

a 8

b 7

c 2

13. Camilo tiene 15 soles y quiere comprar un camión. ¿Cuántos soles le faltan para tener lo que cuesta el camión?



a 6

b 21

c 36

LIVEWORKSHEETS

14. Lee el cuadro y responde: ¿Cuántas libros de comunicación tiene el salón?

	Libros del salón	
	Nuevos	Usados
Libros de comunicación	23	14
Libros de matemática	12	10

a 23

b 35

c 37

15. En un árbol hay 23 naranjas.
12 están maduras y el resto están verdes.
¿Cuántas naranjas están verdes?

a 35

b 12

c 11

LIVEWORKSHEETS

16. ¿Qué número es igual a 6 unidades y 8 decenas?

a 86

b 68

c 14

17. Vicente tiene 43 tarjetas y Pedro tiene 25 tarjetas. Ellos quieren guardarlas en sobres de 10 tarjetas cada una. ¿Cuántos sobres se utilizarán y cuántas tarjetas quedarán sueltas?

a Utilizarán 6 sobres y sobrarán 8 tarjetas.

b Utilizarán 68 sobres y no sobrarán tarjetas.

c Utilizarán 7 sobres y sobrarán 8 tarjetas.

LIVEWORKSHEETS