Cossos rodons

➢ És un Cos rodó? SI o NO?

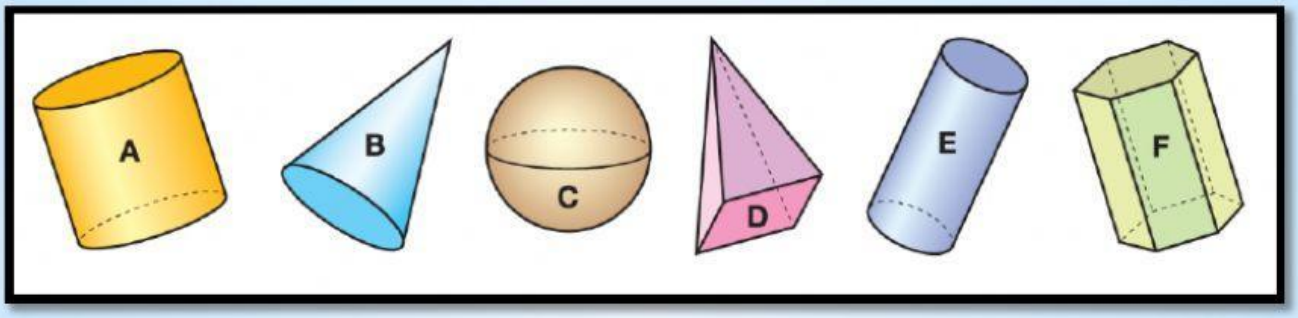

➢ Escriu el nom dels elements assenyalats.

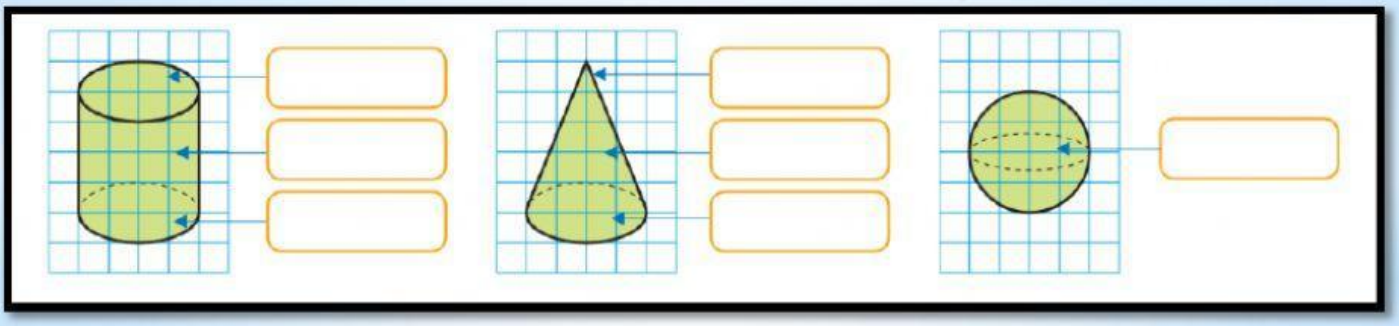

*Quin cos té només una superfície corba?

➢ Llegeix i escriu de quin edifici es parla en cada cas:

- La Géode té forma esfèrica.
- La torre de Sant Climent de Taüll té forma de prisma.
- Les teulades del castell de Neuschwanstein tenen forma cònica.
- La torre de Paterna té forma cilíndrica.

c.

a.



b.



d.

LIVEWORKSHEETS