Examen Bimestral de matemática y R.M

Relaciona cada nombre con el numero que corresponde

Cuatrocientos uno	308
Quinientos diez	401
Cuatrocientos doce	510
Trescientos ocho	412

Escribe el número que corresponde:

5 C + 2 U + 5 D → ____

6 D + 5 U +3 C → ____

4 D+ 6U + 5 C → ____

Escribe el número que corresponde:

400 + 10 +5 → ____

100 + 40 + 2 → ____

500 + 10 + 8 → ____

LIVEWORKSHEETS

Resuelve las siguientes operaciones combinadas:

a) 250 + 12 - 10

b) 20 +(225 - 10)

Operadores matemáticos:

Cada símbolo tiene un valor numérico para hallar la suma o la resta.

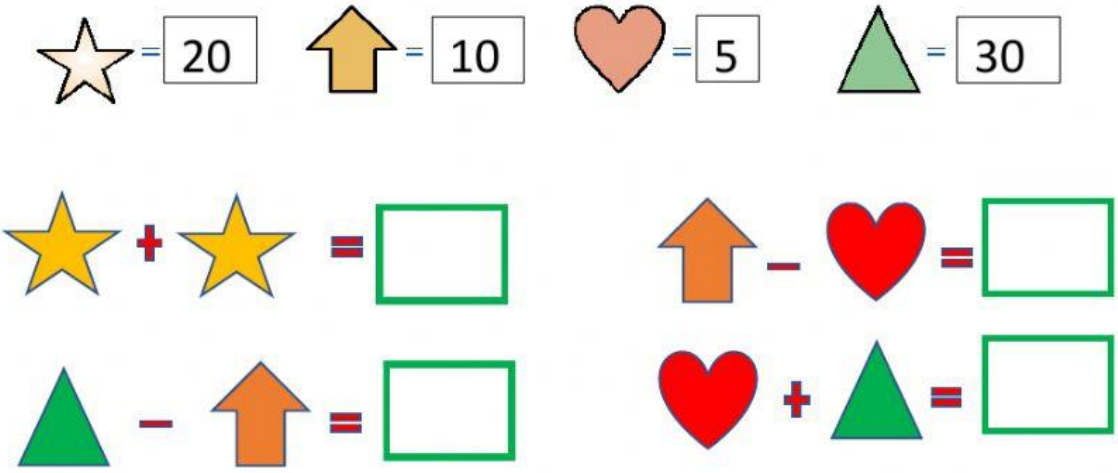

Ordena los números en forma ascendente:

500	523	490	512	530

LIVEWORKSHEETS

Sucesiones numéricas:

a) 50 , 52 , 54 ☐ ☐ ☐ ☐

b) 30 , 34 , 38 ☐ ☐ ☐ ☐

CONTEO DE TRIANGULOS:

¿Cuántos triángulos hay en la figura?

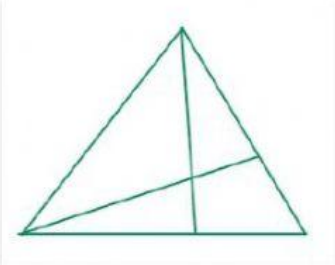

6 7 8

¿Cuántos triángulos hay en la figura?

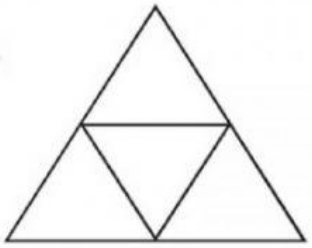

5 4 3

Ordena los números en forma descendente:

450	423	390	392	452

LIVEWORKSHEETS