8.1 Mengumpul, Mengelas dan Menyusun Data.

A) Rajah menunjukkan barangan yang terdapat di dalam sebuah kotak.

Jawab soalan berdasarkan rajah yang diberi.

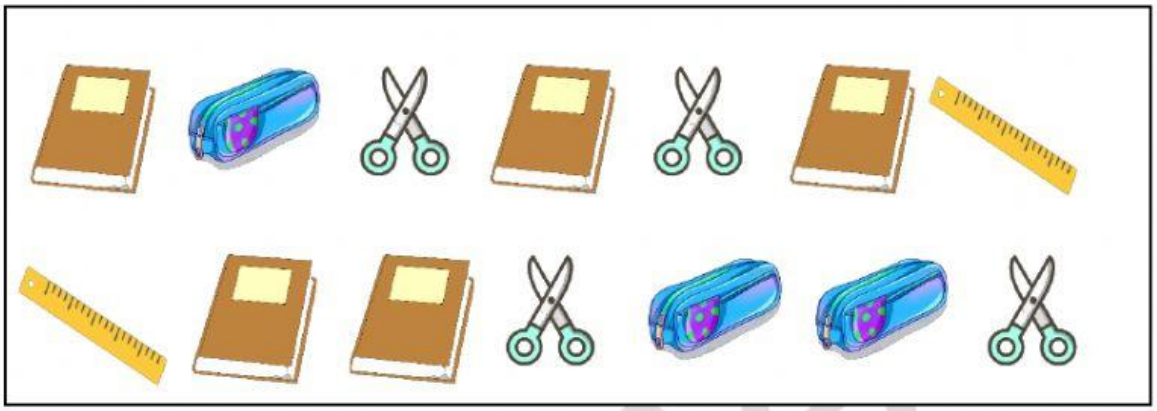

1. Paparan jadual di bawah telah lengkapkan jadual gundalan.

Barangan	Gundal	Bilangan
Gunting		
Bekas Alat Tulis		
Buku	卌	
Pembaris		

(guna simbol / pada cursor laptop/ telefon bimbit untuk gundal)

2. Lengkapkan jadual berikut.

(Tulis angka sahaja)

Barangan	Gunting	Bekas Alat Tulis	Buku	Pembaris
Bilangan				

2 Azale

LIVEWORKSHEETS

B) Lihat gambar. Lengkapkan jadual dan petak jawapan.



Haiwan	Gundal	Bilangan	
			Pirahna
	~~||||~~		Ketam
			Dory
			Tapak sulaiman

(guna simbol / pada cursor laptop/ telefon bimbit untuk gundal)

a) Haiwan manakah yang paling banyak?

_____

b) Haiwan manakah yang paling sedikit?

_____

2 Azal

LIVEWORKSHEETS

8.2 Carta Palang

A) Jawab soalan berdasarkan rajah di bawah.

Carta palang menunjukkan bilangan kucing peliharaan lima murid

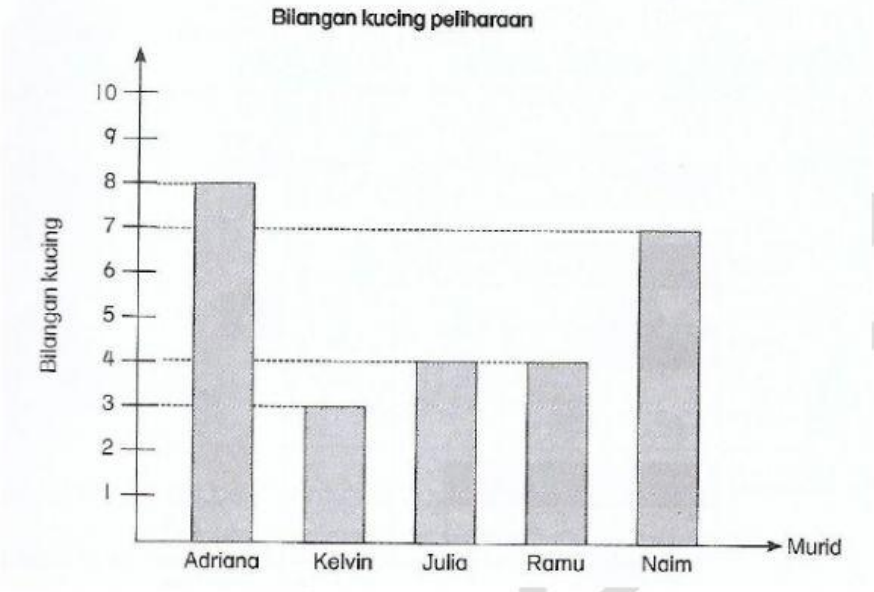

1. Siapakah yang pelihara kucing paling sedikit?

_____

2. Siapakah yang pelihara kucing paling banyak?

_____

3. Nyatakan bilangan kucing yang dipelihara oleh Naim.

_____

4. Siapakah yang pelihara kucing sama banyak?

_____

5. Hitung jumlah kucing yang dipelihara oleh Kelvin dan Naim?

_____

LIVEWORKSHEETS

B) Carta Palang menunjukkan kek cawan yang dibuat oleh Rania.

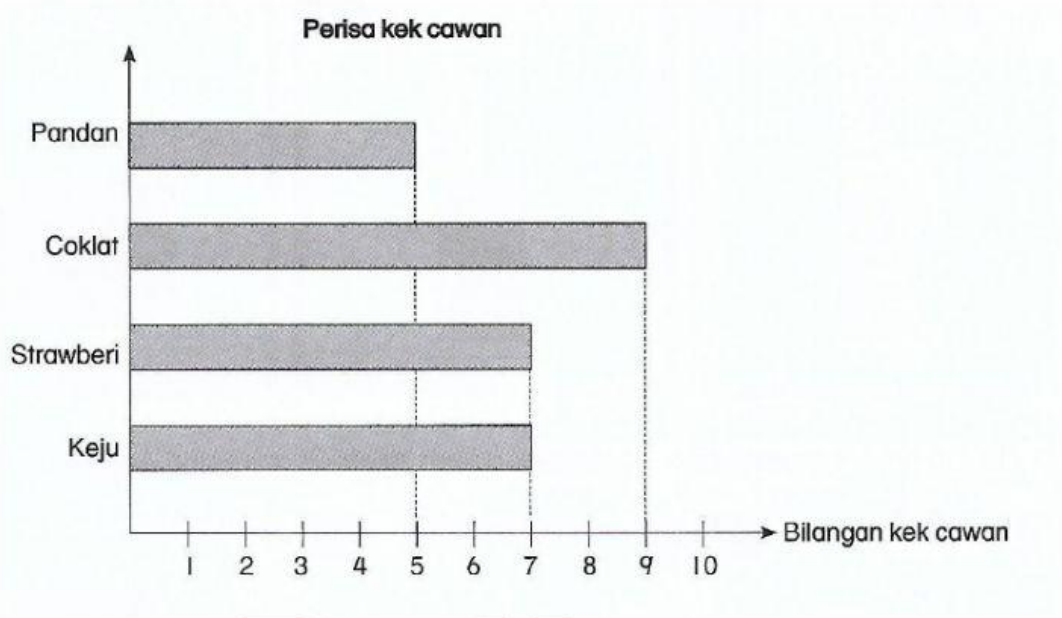

1) Berapakah kek cawan perisa strawberi?

_____

2) Namakan kek cawan yang paling banyak dibuat?

_____

3) Namakan kek cawan yang paling sedikit dibuat.

_____

4) Apakah perisa kek cawan yang dibuat sama banyak? Berapa?

_____

5) Berapakah jumlah kek cawan perisa pandan dan perisa coklat?

_____

LIVEWORKSHEETS

2 Azalea

LIVEWORKSHEETS