E-LKPD

Elektronik LEMBAR KERJA PESERTA Didik

SDN KARANGWEDORO

Oleh : Isnaini Rohmawati, S.Pd

Untuk Kelas IV

Tema Peduli Terhadap Makhluk Hidup
Subtema Hewan dan Tumbuhan di Lingkungan Rumah
Pembelajaran 3

www.kredx.com

LIVEWORKSHEETS

LATIHAN SOAL

NAMA :	
ABSEN :	

A. Menjodohkan dengan garis

Tariklah garis dari huruf A/B/C ke arah gambar atau kotak pasangannya

1. .

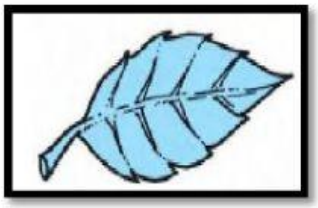



Menyirip

Melengkung

Sejajar

Menjari

LIVEWORKSHEETS

2.

Akar Serabut

Akar Tunggang

B. Kotak Centang

3. ***Berilah tanda centang pada fungsi batang dibawah ini!***

- [ ] Tempat tumbuhnya bagian lain dari tumbuhan
- [ ] Sebagai saluran tempat mengangkut air dan mineral dari akar menuiu ke daun
- [ ] Tempat menyimpan cadangan makanan
- [ ] Alat perkembangbiakan pada tumbuhan

LIVEWORKSHEETS

4. ***Berilah tanda centang pada bagian-bagian bunga dibawah ini!***

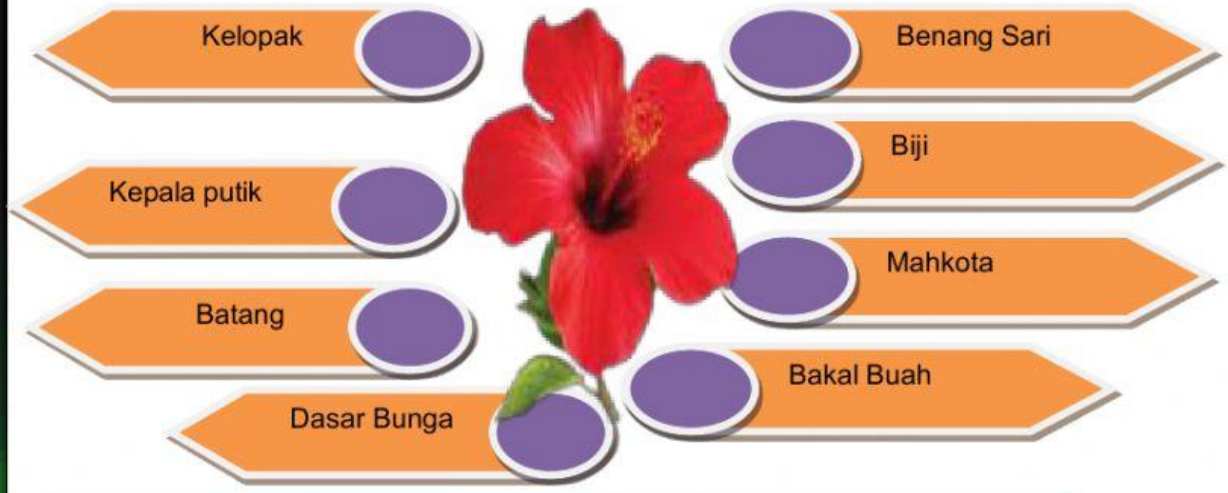

B. Drag and Drop (Tarik dan Lepas)

5.

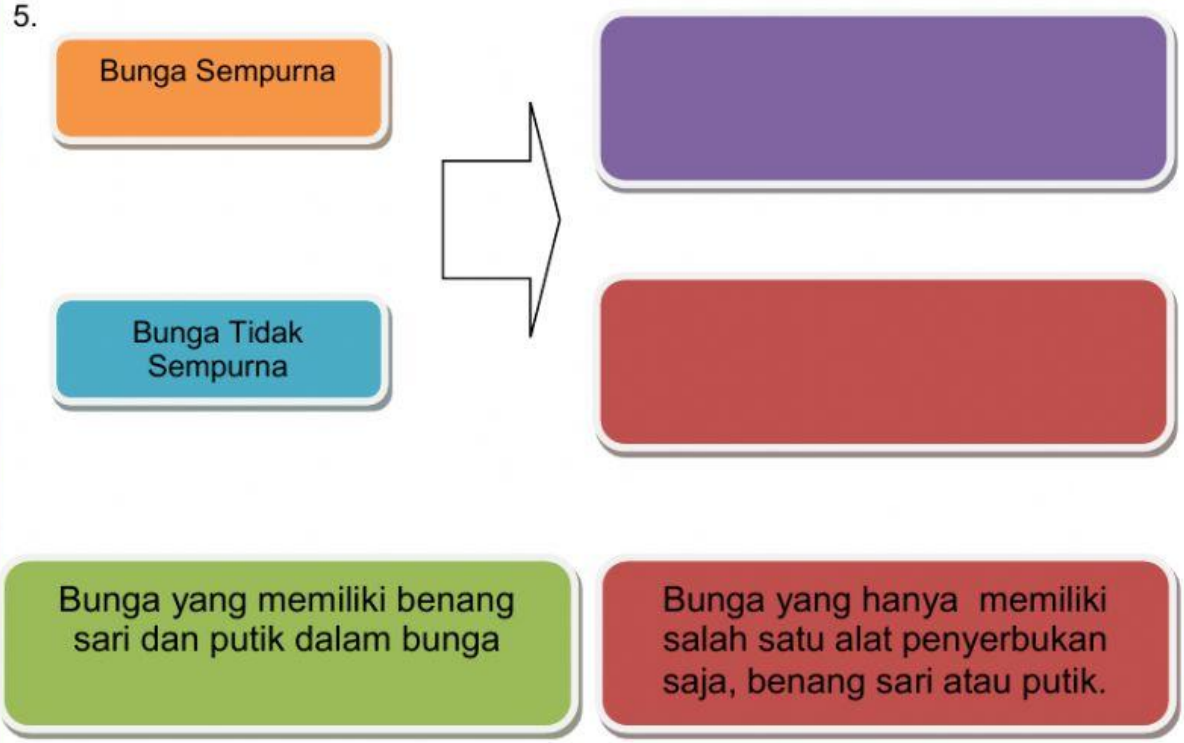

LIVEWORKSHEETS

D. Pilihan Ganda

Pilihlah a,b,c, atau d pada jawaban yang paling benar!

6. Bagian buah pada tumbuhan berfungsi untuk … .
   a. menyerap air
   b. mengangkut air
   c. pelindung biji
   d. tempat terjadinya penyerbukan

7. Gambar batang disamping merupakan batang … .
   a. rumput
   b. kering
   c. basah
   d. indah

8. Berikut bukan manfaat tumbuhan bagi manusia adalah … .
   a. menyerap karbondioksida
   b. membuat suasana menjadi asri
   c. menghasilkan oksigen
   d. merusak lingkungan

9. segala hal yang berada di sekitar kita, baik itu benda mati ataupun makhluk hidup yang terpengaruh oleh kegiatan yang dilakukan manusia adalah ….
   a. benda hidup
   b. makhluk hidup
   c. lingkungan hidup
   d. alam semesta

10. Tumbuhan memiliki klorofil atau zat hijau daun yang berfungsi sebagai media membuat makanan atau disebut proses …. .
   a. pernafasan
   b. fotosintesis
   c. penggunaan daun
   d. pembuahan

"Selamat Mengerjakan"

LIVEWORKSHEETS