Saya Jawab

Jawab semua soalan yang berikut.

1. Namakan cara yang sesuai untuk mengasingkan campuran berikut.

klip kertas dan dawai kokot

serbuk besi dan pasir pantai



gabus dan pasir

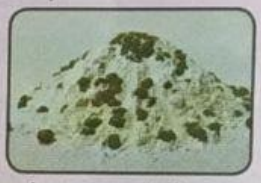

kacang hijau dan tepung

2. Tandakan (✓) pada bahan yang boleh larut di dalam air.

gula

pasir

garam



batu

3. Nyatakan tiga cara bahan boleh dilarutkan dengan lebih cepat.

LIVEWORKSHEETS