Los prismas

1. Coloca cada elemento en su lugar y responde a las preguntas.

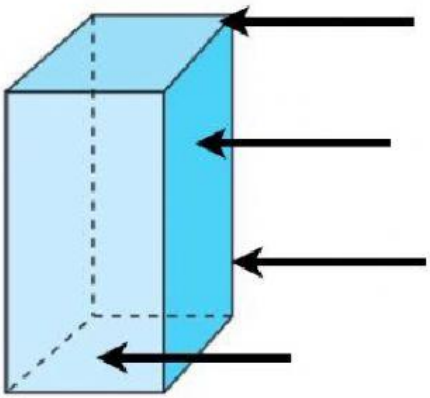

Base | Vértice | Arista | Cara lateral

- ¿Cómo se llama esta figura?
- ¿Cuántas bases tiene?
- ¿Cuántas caras tiene?

2. Une cada prisma con su base correspondiente, es decir cómo se ve si lo miramos desde arriba.

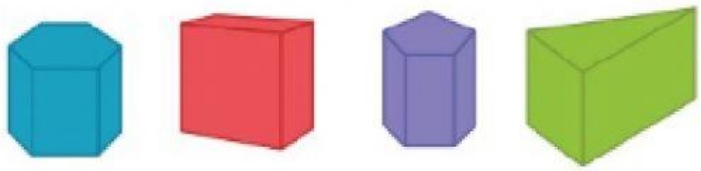

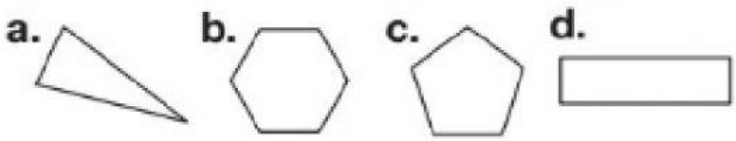

LIVEWORKSHEETS

3. Selecciona la opción correcta:

	Nombre del prisma	Base	N° de caras laterales	N° de aristas
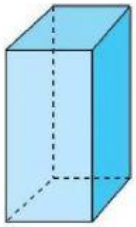				
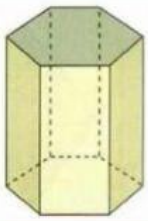				
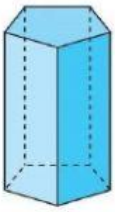				
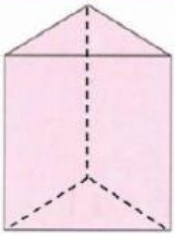				

LIVEWORKSHEETS