El tallo

1.- Completar las frases según corresponda:

A) Las funciones del tallo son las de _____ y _____

B) Por dentro se encuentra el _____ y el _____

2) Completar los gráficos:

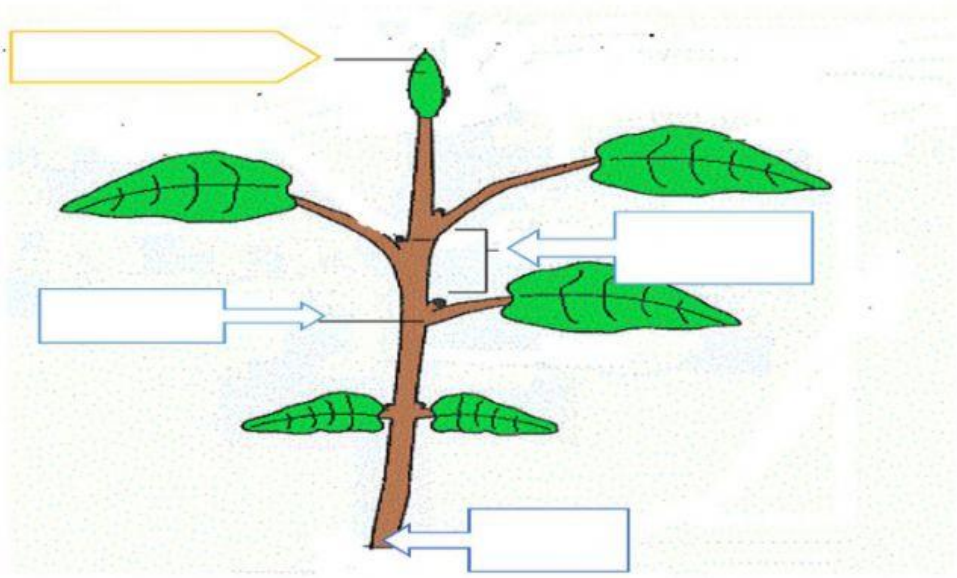

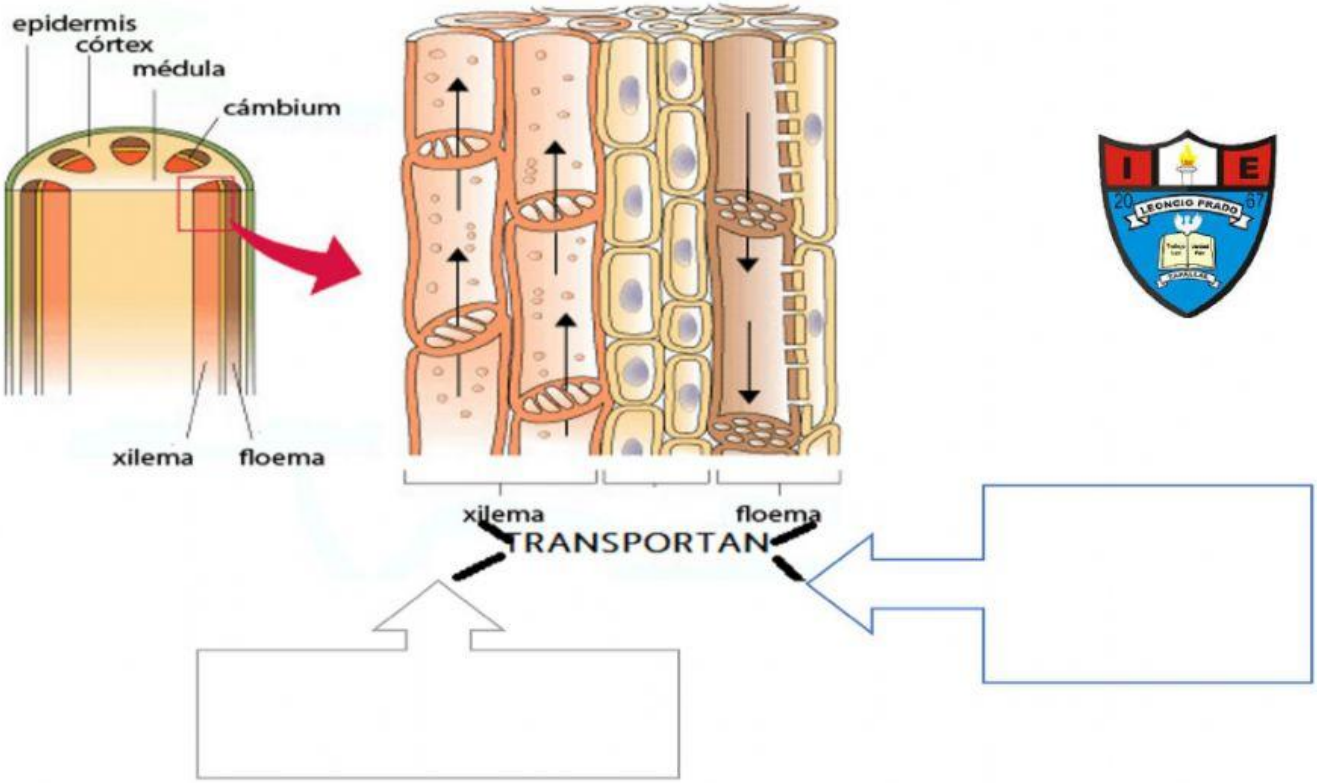

LIVEWORKSHEETS

Trabajo con mucha atención con los ejercicios propuestos

a. Escribo las funciones del tallo:

.....

.....

.....

b. Selecciona la palabra del recuadro y escribe en los espacios la respuesta correcta.

Tallo principal - Axilas - Nudos - Tallo secundario- Yema terminal.

1) Los.....son unos engrosamientos situados en los tallos y es donde nacen las hojas.
2) .....es el punto donde se unen la rama o la hoja con el tallo.
3) ..... es el brote pequeño, situado en el ápice o final del tallo que lo hace crecer en longitud.
4) .....de aquí empiezan a salir los tallos secundarios.
5) .....salen cuando se va desarrollando el tallo principal.

c. Nombro en cada dibujo la clase de tallo según corresponde.



LIVEWORKSHEETS