Lembar Kerja Peserta Didik

Nama :	Muatan : SBdP (KD 3.2)
Nomor:	Materi : Interval Nada
Kelas :	

Perhatikan interval nada berikut sebelum menjawab soal-soal di bawah!

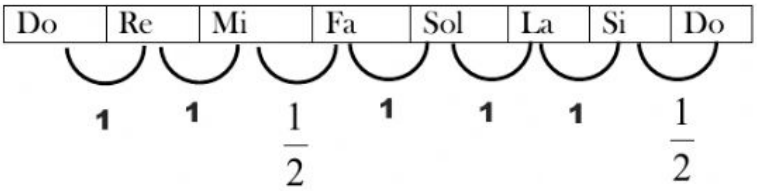

❖ Berilah tanda centang pada nada-nada yang memiliki interval nada yang tepat!

a. Nada yang memiliki interval 1 nada.

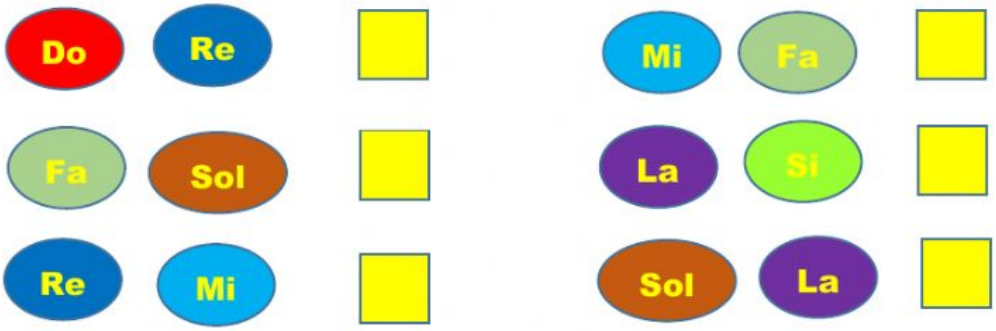

b. Nada yang memiliki interval 2 nada.

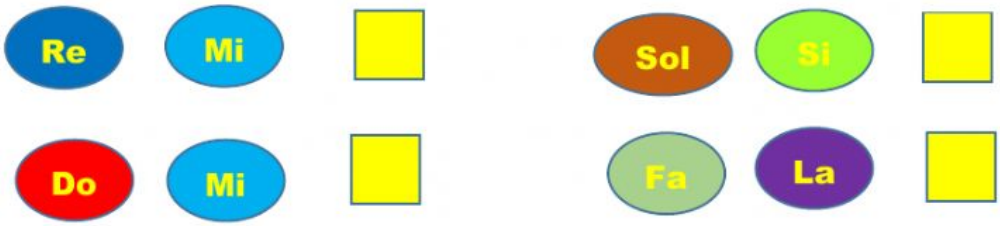

LIVEWORKSHEETS

c. Nada yang memiliki interval $\frac{1}{2}$ nada.

Mi Fa

Si Do'

Fa Si

Re Mi

d. Nada yang memiliki jarak $1\frac{1}{2}$ nada.

Mi Sol

Do Fa

La Do'

Re Fa

❖ Tentukan interval nada, nada-nada berikut!

Do Mi

Mi Fa

Re Sol

Mi La

Si Do'

Do Fa

Selamat Belajar

LIVEWORKSHEETS