CONTINUAMOS CON EL PERÍMETRO

1. ¿Cuál es el perímetro de cada recuadro?

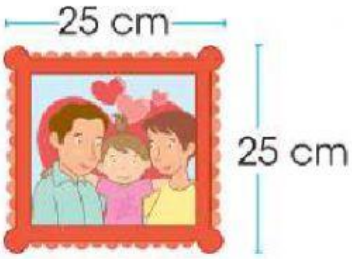

P = ☐ + ☐ + ☐ + ☐

P = ☐ cm

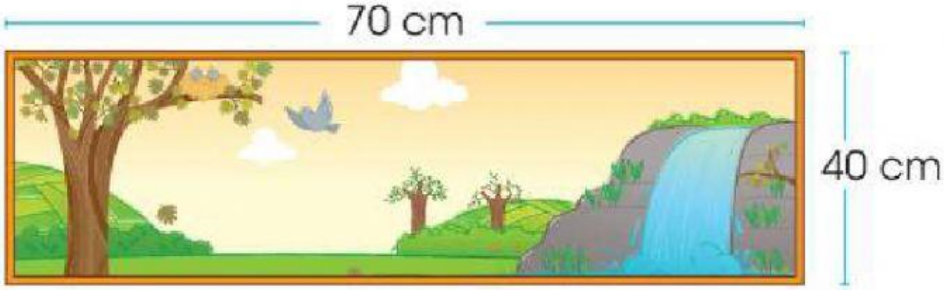

P = ☐ + ☐ + ☐ + ☐

P = ☐ cm

2. Dora dio una vuelta alrededor de la cancha A y Miguel dio una vuelta en la cancha B. Observa y responde.

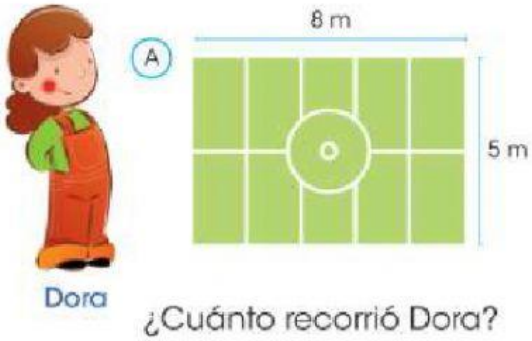

P = ☐ + ☐ + ☐ + ☐

P = ☐ m

Recorrió _____ m.

LIVEWORKSHEETS

B

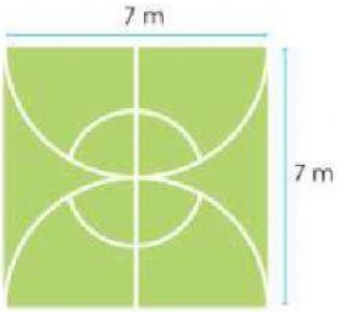

¿Cuánto recorrió Miguel?

Miguel

P = ☐ + ☐ + ☐ + ☐

P = ☐ m

Recorrió _____ m.

- ¿Quién recorrió mayor distancia? _____
- ¿Cuánto más? _____

3. Lee y resuelve.

- Antonio quiere construir un muro alrededor de su terreno que mide 9 m de largo y 7 m de ancho. ¿Cuántos metros de muro tendrá que construir?

☐ + ☐ + ☐ + ☐ = ☐

Antonio tendrá que construir _____ de muro.

- Marcos tiene que dar 2 vueltas alrededor de un patio que mide 4 m de ancho y 7 m de largo. ¿Cuántos metros tiene que correr Marcos en total?

☐ + ☐ + ☐ + ☐ = ☐

☐ + ☐ = ☐

Marcos tiene que correr _____ en total.

LIVEWORKSHEETS