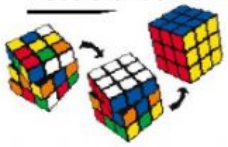

ÁREA DE FIGURAS
PARALELEPÍPEDO DE BASE CUADRADA Y RECTANGULAR

☺ **Calcula el área de las siguientes figuras. -**

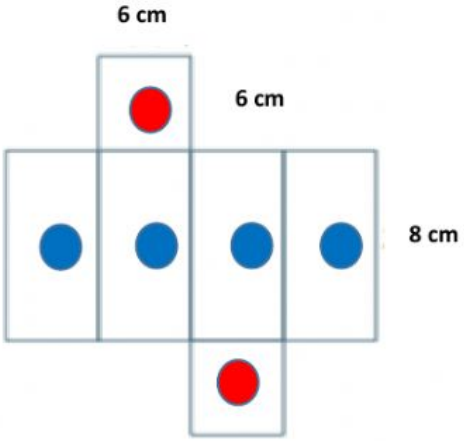

1.- Multiplicar lado por lado (Cuadrado) (2 caras)

☐ x ☐ = ☐ cm^2

2.- Multiplicar largo por ancho (4 caras)

☐ x ☐ = ☐ cm^2

3.- Multiplicar áreas por la cantidad de caras

4.- Sumar Área Total

AT=

_____ x 2 = _____ cm^2

_____ x 4 = _____ cm^2

Suma total: _____ cm^2

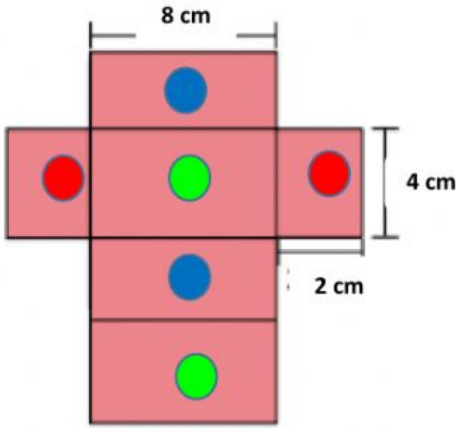

1.- Multiplicar largo por ancho (2 caras)

☐ x ☐ = ☐ cm^2

2.- Multiplicar largo por ancho (2 caras)

☐ x ☐ = ☐ cm^2

3.- Multiplicar largo por ancho (2 caras)

☐ x ☐ = ☐ cm^2

4.- Multiplicar áreas por la cantidad de caras

_____ x **2** = _____cm2

_____ x **2**= _____cm2

_____ x **2** = _____cm2

5.- Sumar todos los resultados Área Total

_____cm2