ชื่อ-สกุล: _____ ชั้น: _____ เลขที่: _____

# การสืบพันธุ์ของมนุษย์

ให้นักเรียนนำอวัยวะในระบบสืบพันธุ์ของมนุษย์ไปเติมในช่องว่างให้ถูกต้อง

| | | | | |
|---|---|---|---|---|
| ต่อมสร้างน้ำเลี้ยงอสุจิ | ไส้ตรง | องคชาต | หลอดสร้างอสุจิ | ท่อปัสสาวะ |
| หลอดเก็บอสุจิ | ทวารหนัก | ต่อมคาวเปอร์ | ถุงอัณฑะ | หลอดนำอสุจิ |

## ระบบสืบพันธุ์เพศชาย

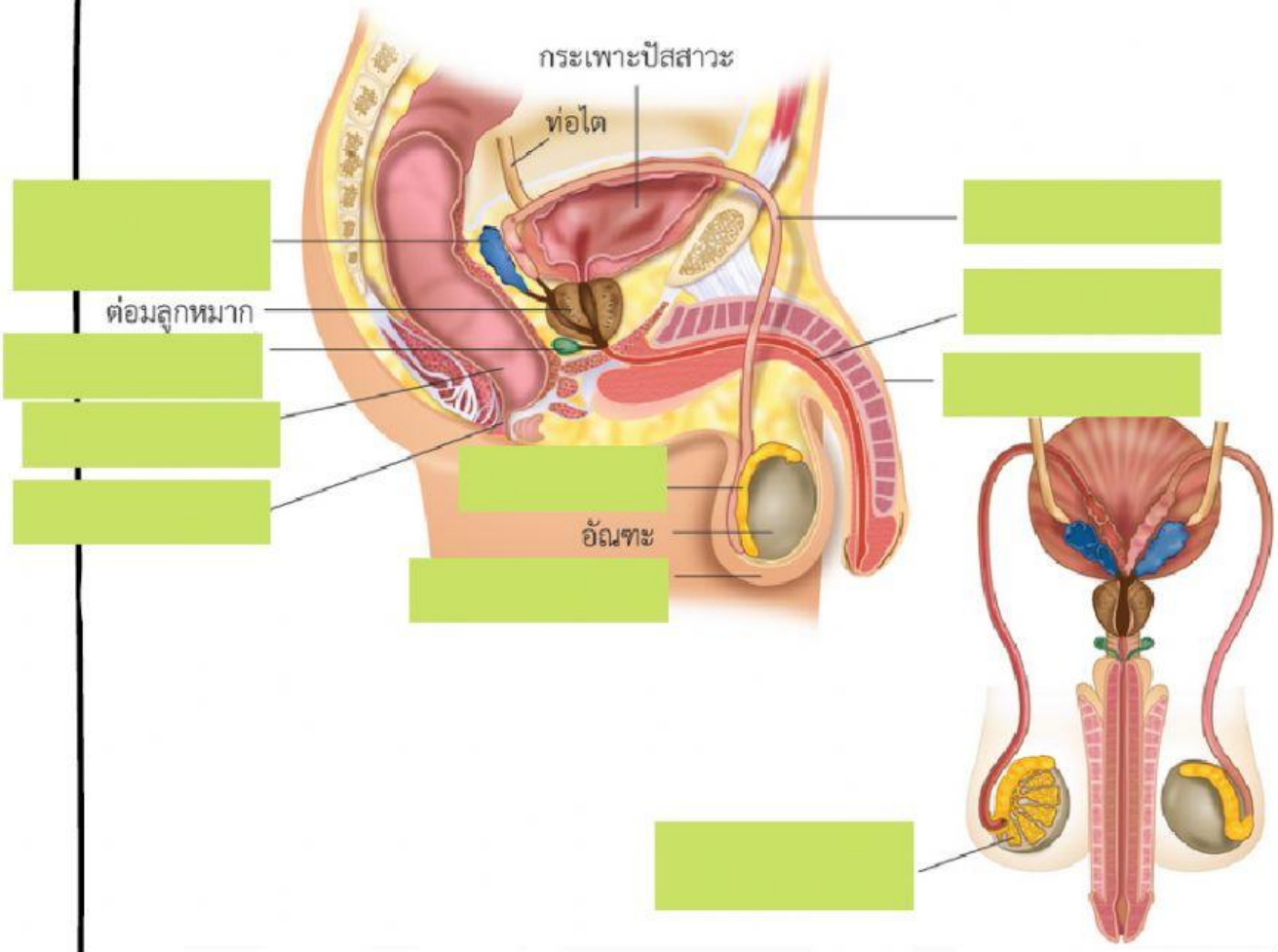


LIVEWORKSHEETS

| | | | | |
|---|---|---|---|---|
| ช่องคลอด | รังไข่ | ท่อนำไข่ | ปากมดลูก | เอนโดมีเทรียม |
| ปากมดลูก | มดลูก | ผนังมดลูก | ช่องคลอด | มดลูก |

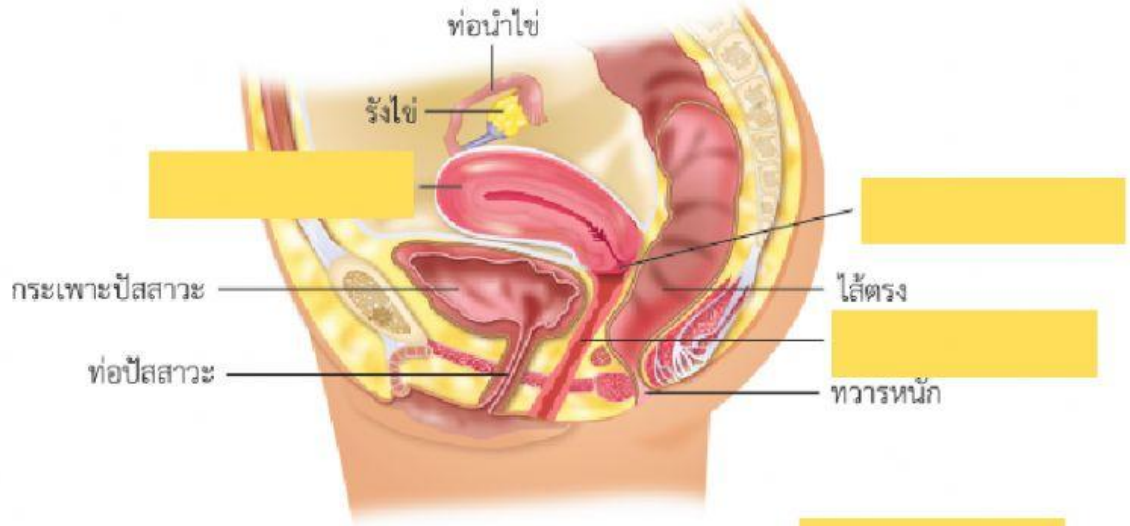


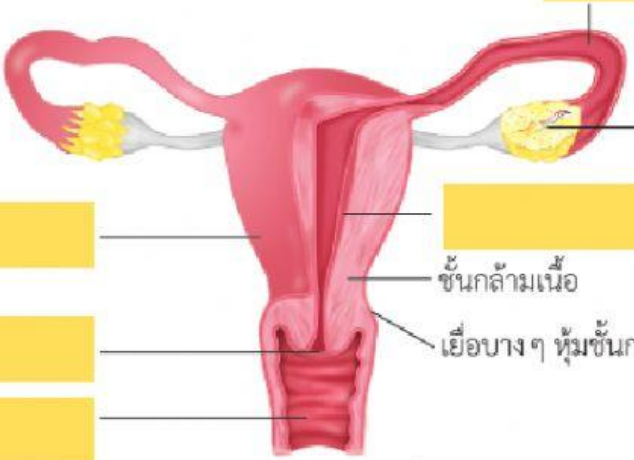


# ระบบสืบพันธุ์เพศหญิง

LIVEWORKSHEETS