NHẬN DẠNG HÌNH THANG CÂN

Tính các góc còn thiếu trong mỗi hình và xét xem tứ giác đã cho có là hình thang cân không?

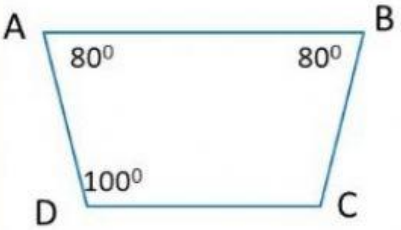

$\widehat{C}$ = _____ độ.

Tứ giác ABCD

$\widehat{K}$ = _____ độ.

Tứ giác IJKL

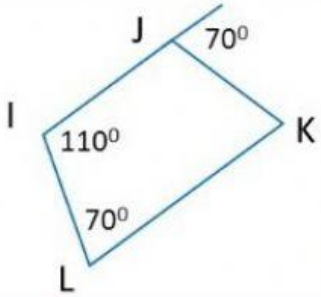

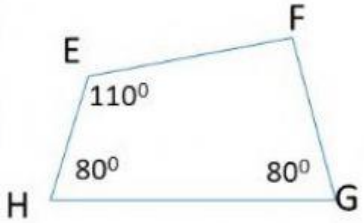

$\widehat{F}$ = _____ độ.

Tứ giác EFGH

$\widehat{O}$ = _____ độ.

Tứ giác MNOP

LIVEWORKSHEETS