Tên học sinh: .....

Bài 1: Phần nguyên của hỗn số $3\frac{5}{8}$ là:

Bài 2: Phần phân số của hỗn số có đặc điểm như thế nào ?

Bằng hơn 1 đơn vị

Lớn hơn 1 đơn vị

Nhỏ hơn 1 đơn vị

Nhỏ hơn 2 đơn vị

LIVEWORKSHEETS

Bài 3: Viết hỗn số và phân số thích hợp với mỗi hinh vẽ sau:

	Phân số	Hỗn số
	____	____
	____	____
	____	____

LIVEWORKSHEETS

Bài 4: Chọn hỗn số thích hợp điền vào chỗ trống :

$1\frac{3}{4}$ $1\frac{2}{4}$ $2\frac{2}{4}$ $2\frac{3}{4}$ $2\frac{1}{4}$

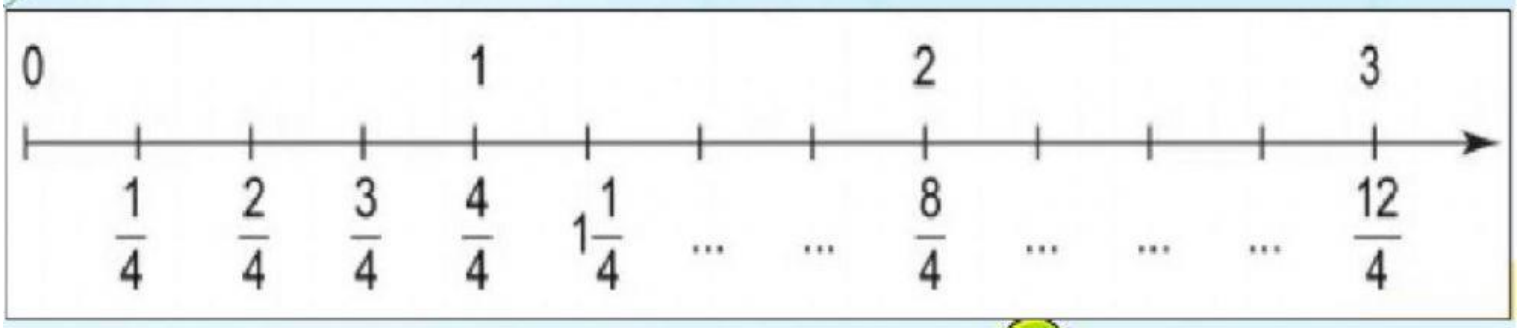



LIVEWORKSHEETS

> , < , =

Bài 5: Chọn dấu > , < , = thích hợp vào ô trống :

$3\frac{5}{6}$ $2\frac{4}{7}$

$8\frac{2}{5}$ $8\frac{3}{5}$

$7\frac{9}{8}$ $12\frac{1}{2}$

$11\frac{3}{8}$ $11\frac{3}{11}$

LIVEWORKSHEETS

Bài 6: Chọn dấu > , < , = thích hợp vào ô trống :

$4\frac{3}{5}$ $7\frac{2}{9}$ $6\frac{1}{3}$ $6\frac{3}{5}$

$\frac{19}{3}$ $\frac{33}{5}$ $\frac{23}{5}$ $\frac{65}{9}$

LIVEWORKSHEETS

Bài 7: Tính

$\frac{2}{5} + \frac{4}{7} =$ ___ + ___ = ___

$\frac{3}{2} - \frac{9}{8} =$ ___ − ___ = ___

$\frac{3}{4} \times \frac{5}{6} =$ _____ = ___

$\frac{5}{7} : 3 =$ ___ ___ = ___

LIVEWORKSHEETS