DISTANCIA Y DESPLAZAMIENTO

Nombre:

Grupo: Fecha:

Instrucciones: Observa los siguientes dibujos y has los cálculos necesarios para encontrar la distancia y el desplazamiento.

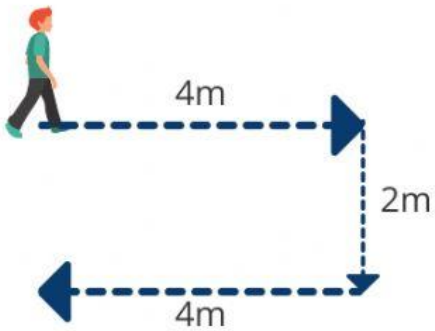

Distancia=
Desplazamiento=

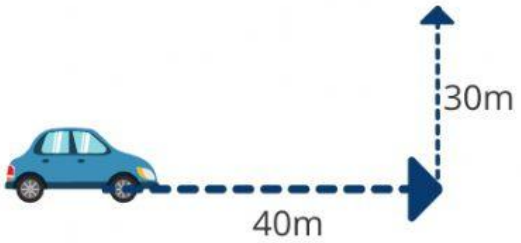

Distancia=
Desplazamiento=

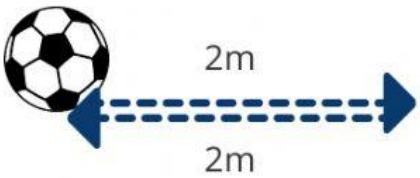

Distancia=
Desplazamiento=

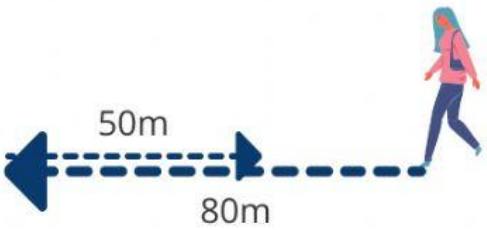

Distancia=
Desplazamiento=

LIVEWORKSHEETS