PROBLEMAS

1 **Observa las siguientes postales que tiene cada niña y responde a las preguntas.**

¿Cuántas postales tienen Vero y Paty en total?

Solución

Tiene postales en total.

¿Cuántas postales tiene Paty más que Vero?

Solución

Tiene postales más.

2 Dictado de números y cálculo mental.

3 Inventa y escribe una pregunta para este problema. Resuelve.

Tengo 12 peras en casa y me he comido esta semana 7 pera.

¿ _____ ?

Datos:

Tengo _____ peras

He comido _____ peras

Operación:





Solución:

_____

4 Mira los dato e inventa y escribe un problema. Resuelve.

¿ _____ ?

Operación:



Solución:

_____