ESCUELA DE EDUCACIÓN BÁSICA
"EDUARDO KINGMAN"

Sibambe # 510 y Ambato
2-154-409

EXAMEN DEL PRIMER QUIMESTRE

CALIFICACIÓN

ASIGNATURA: MATEMÁTICA AÑO BÁSICO: **B**

NOMBRE: _____

FECHA: Durán, martes 28 de septiembre de 2021

_____
FIRMA DEL PROFESOR

1. **Escribe los términos de la división en el lugar correcto. (0.40 puntos)**

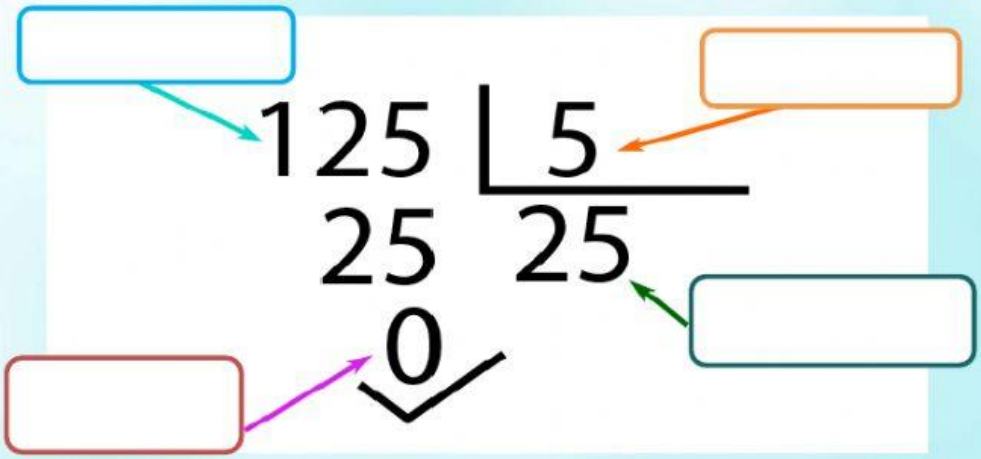

2. **Descubre el patrón y completa las siguientes sucesiones. (1 punto)**

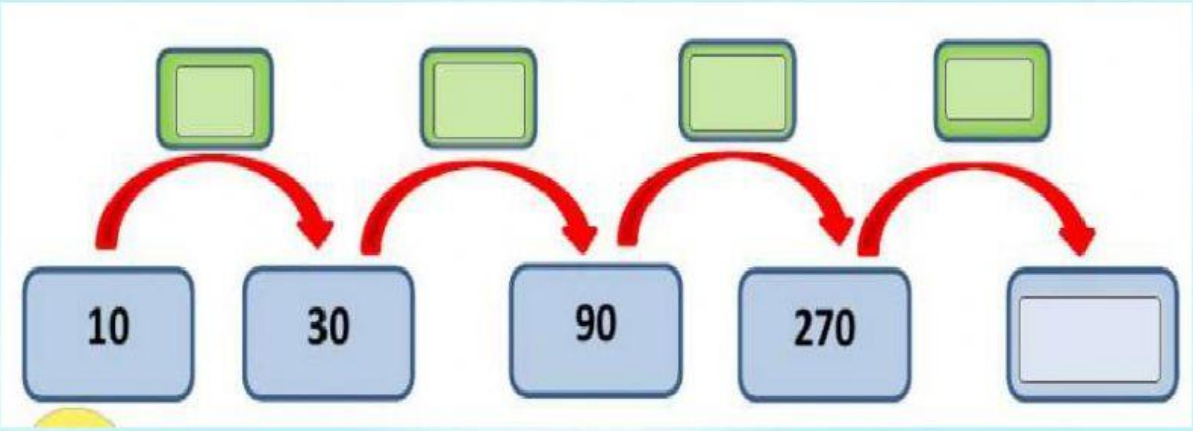

LIVEWORKSHEETS

3. **Escribe el redondeo de los siguientes números. (1 punto)**

Redondeo de números **enteros**

a.- 5,32=

b.- 7,54=

Redondeo a las **décimas**

a.- 4,39=

b.- 8,71=

4. **Resuelve las siguientes operaciones. (1.75 puntos)**

4	5	6	7		3	8	

				8	0	3	9	1
				x		7	6	9

5. **Hallar el m.c.m. y el M.C.D. de los siguientes números. (2 puntos)**

20	30

20	30

m.c.m.(20,30)=

M.C.D.(20,30)=

LIVEWORKSHEETS

6. **Señala los divisores del siguiente número. (1.5 puntos)**

Divisores de 12											
1	2	3	4	5	6	7	8	9	10	11	12

7. **Arrastra y completa los multiplos (1.60 puntos)**

$M(2)$	0	2		6	8		12		16 … … ..
$M(5)$	0		10	15		25		35	40 … … ..
$M(7)$	0	7	14		28		42	49	… … ..
$M(20)$	0	20		60		100		140	160 … …
$M(15)$	0		30		60		90	105	… …

14	80	5	120	21	45	10	75
35	20	40	4	15	56	120	30

8. **Encuentra el perímetro. (0.75 punto)**

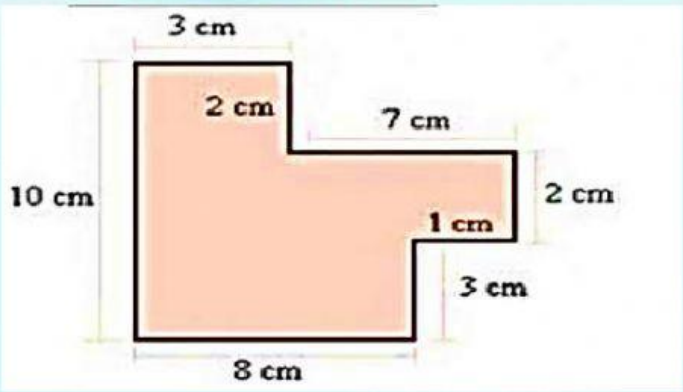

P= l+l+l+l+l+l+l+l

P=

P=

Lcda. Flor de Rosa Suárez Morales Sexto A

Lcda. Yury Mabel Arreaga Moncada Sexto B

LIVEWORKSHEETS