3.1 Nilai wang

3.1.3. Menyebut nilai wang dalam sebutan Ringgit Malaysia.

3.1.4. Menentukan nilai ringgit dan sen.

Arahan Tugasan :

Suaikan perkataan berikut dengan gambar rajah dibawah.

60 sen 	tiga puluh sen enam puluh sen
40 sen 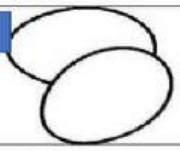	empat puluh sen lima belas sen
RM7 	tujuh ringgit lapan ringgit
RM20 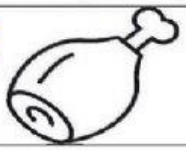	dua belas ringgit dua puluh ringgit

LIVEWORKSHEETS

Arahan Tugasan :

Berikan jawapan dalam bentuk angka dan perkataan

RM

RM

LIVEWORKSHEETS

RM

RM

LIVEWORKSHEETS

LIVEWORKSHEETS

Arahan Tugasan :

Arahan : Kira dan tuliskan nilai wang dibawah ini.

1.

2.

3.

4.

5.

6.

LIVEWORKSHEETS