PENILAIAN TENGAH SEMESTER GANJIL

TEMA 1 SUBTEMA 1 DAN 2

NAMA : **KELAS :**

Petunjuk pengerjaan

1. *Soal nomor 1 sampai 15 dikerjakan dengan cara mengklik salah satu jawaban yang benar*
2. *Soal bagian II dikerjakan dengan cara menarik garis garis pada kotak sebelah kiri ke kotak sebelah kanan*
3. *Soal bagian III dikerjakan dengan mengklik bagian lingkaran kecil*
4. *Soal bagian IV dikerjakan dengan cara mengetik jawaban*

I. Berikan tanda silang (x) pada jawaban yang benar !

1. Menjenguk teman sakit merupakan pencerminan pancasila sila ke ...
   a. 1.
   b. 2
   c. 3
   d. 4
2. Simbol sila pertama Pancasila adalah ...
   a.
   b.
   C.
   d.
3. Sikap saling menghormati antarsesama termasuk pengamalan sila ke ...
   a. 2
   b. 3
   c. 4
   d. 5
4. Jika ada teman yang gagal memenangkan lomba, sikap kita sebaiknya ...
   a. menghiburnya
   b. menertawakannya
   c. Meledeknya
   d. Memujinya

LIVEWORKSHEETS

5. Contoh pengamalan sila pertama adalah ...
   a. Sikap toleransi
   b. Menghormati hak orang lalin
   c. Saling tolong menolong
   d. Bangga menjadi rakyat Indonesia
6. Hewan yang bernapas dengan menggunakan insang adalah ...

a.

c.

b.

d.

7. Kelompokan jenis makanan yang mengandung Protein Hewani ...

a.

b. 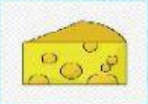

c.

d.

8. kelompok hewan berikut yang berkembang biak dengan cara bertelur

a.

b.

c.

LIVEWORKSHEETS

d.

9. 7.896 dibaca .....
   a. tujuh ribu delapan ratus enam puluh sembilan
   b. tujuh ribu sembilan ratus enam puluh sembilan
   c. tujuh ribu tujuh ratus enam puluh sembilan
   d. tujuh ribu delapan ratus sembilan puluh enam
10. Jika suatu perkebunan dapat menghasilkan 2.575 buah dalam satu kali panen. Berapa jumlah buah yang akan dihasilkan dalam dua kali panen?
   a. 5.150
   b. 5.155
   c. 5.160
   d. 5.140
11. Angka 8 pada bilangan 8.342 menempati nilai tempat ....
   a. Ribuan
   b. ratusan
   c. puluhan
   d. Satuan
12. Pada musim panen dihasilkan 2 keranjang buah mangga. Keranjang pertama berisi 1.859 buah mangga. Keranjang kedua berisi 3.789 buah mangga. Berapa jumlah buah mangga dalam dua keranjang tersebut?
   a. 5.654
   b. 5.648
   c. 5.642
   d. 5.646
13. .... Tujuh ribu lima ratus Sembilan puluh satu
   a. 7.915
   b. 7.951
   c. 7.159
   d. 7. 591
14. Hasil penjumlahan 1.200 + 3.250 adalah ...
   a. 4.440
   b. 4.460
   c. 4.450
   d. 4 .430
15. Hasil dari 345 x 2 adalah ...
   a. 609
   b. 960
   c. 690
   d. 980

LIVEWORKSHEETS

II. **Pasangkanlah kolom yang ada di sebelah kiri dengan kolom yang ada di sebelah kanan**

234 + 123	609
143 + 273	416
321 + 411	850
425 x 2	732
732 - 123	357

III. **Berilah tanda centang (√) pada lingkaran yang termasuk ciri-ciri makhluk hidup**

- berkumpul
- Makan dan minum
- bernapas
- bergerak
- Berkembang biak
- tumbuh



LIVEWORKSHEETS

IV. Isilah titik-titik di bawah ini dengan benar !

1. Anak kecil lama kelamaan akan menjadi besar. Hal ini menunjukkan bahwa makhluk hidup .....
2. Ikan bernapas menggunakan .....
3. Alat pernapasan pada manusia adalah .....
4. Alat pernapasan pada tumbuhan disebut....
5. Proses pembuatan makanan pada tumbuhan disebut .....
6. Simbol sila kedua Pancasila adalah .....
7. Protein nabati adalah protein yang dihasil dari .....
8. Hasil dari 456 + 234 = ...
9. Danu memiliki 214 butir kelereng. Danu memberikan 16 kelerangnya kepada Bayu. Sisa kelerang yang dimiliki Danu adalah .....
10. Andi memiliki 3 kandang ayam. Masing-masing kandang dihuni sebanyak 25 ekor ayam. Jumlah ayam Andi adalah .....

"SELAMAT MENGERJAKAN"



LIVEWORKSHEETS