LEMBAR KERJA PESERTA DIDIK(LKPD)

BILANGAN CACAH DUA ANGKA

KELAS 1 SD

Nama :.....

Kelas : .....

Oleh : Wiwit Samiawati Nugraha, S.Pd.

LIVEWORKSHEETS

A. Judul : Bilangan Cacah dua angka

B. Tujuan Pembelajaran

1. Dengan kegiatan Dengan menggunakan benda-benda konkret/gambar siswa dapat membilang 11 sampai dengan 20 secara urut dengan tepat.
2. Dengan menggunakan gambar dan kartu bilangan siswa mampu. menunjukkan lambang bilangan 11 sampai dengan 20 dengan tepat.

C. Langkah-lan gkah kegiatan

1. Coba amati lagi video yang ditampilkan oleh guru !
2. Kerjakan soal berikut dengan cara yang sudah dicontohkan oleh guru

Ayo Pecahkan !

Pagi hari Lani berolahraga. Lani jalan pagi di sekitar rumahnya. Sambil jalan pagi Lani melihat sekeliling. Lani menghitung benda-benda yang dilihatnya. Coba hitung banyak benda-benda tersebut !



.....

.....

Untuk menjawabnya kita simak video berikut !

LIVEWORKSHEETS

Ayo Mengamati !

Selanjutnya Lani belajar menghitung benda-benda lainnya !



LIVEWORKSHEETS

Evaluasi Pemecahan Masalah

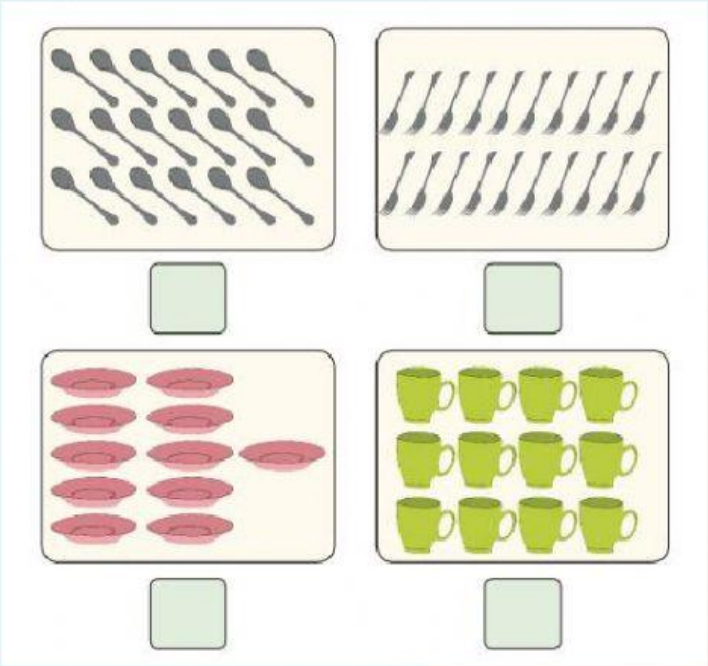

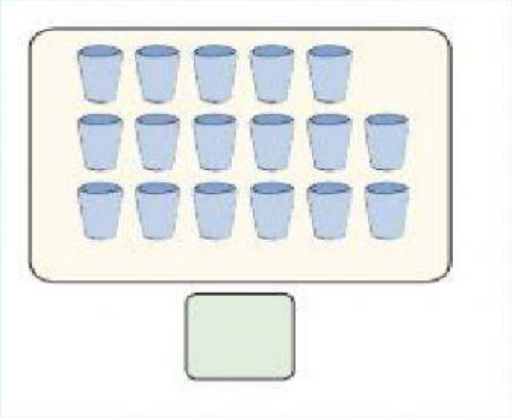

LIVEWORKSHEETS

LIVEWORKSHEETS