Los Ángulos

Coloca los elementos del Ángulo

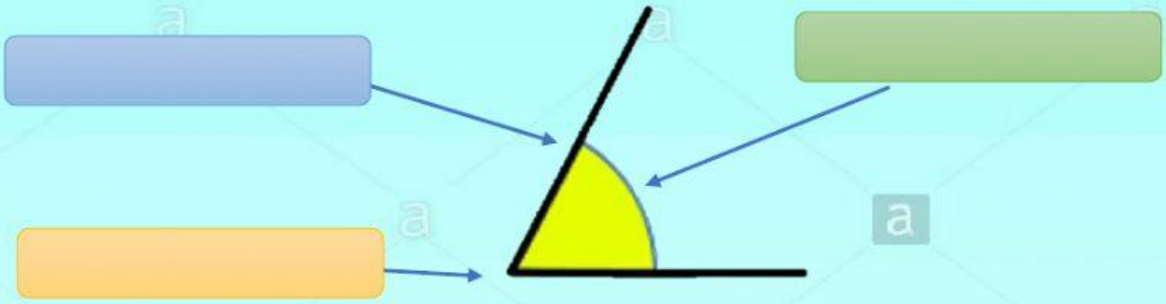

Escribe los nombres de cada instrumento geométrico.

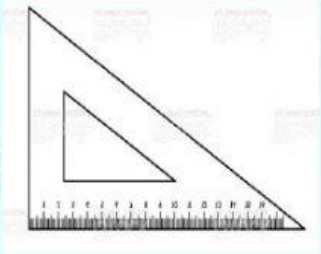



Selecciona que objeto tiene ángulos entre las siguientes imágenes.

Maestra Guillermina

LIVEWORKSHEETS