CEIP LEÓN FELIPE

MATEMÁTICAS - FICHA 4 DE MAYO

1. Calcula el área de los siguientes polígonos.

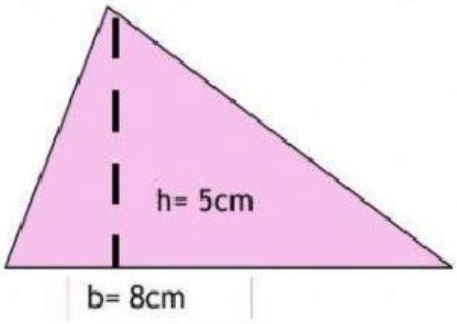

Solución:



Solución:

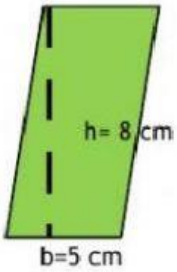

Solución:

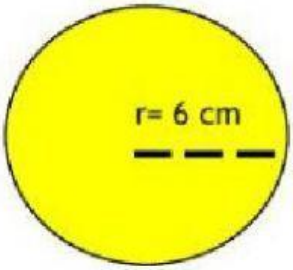

Solución:

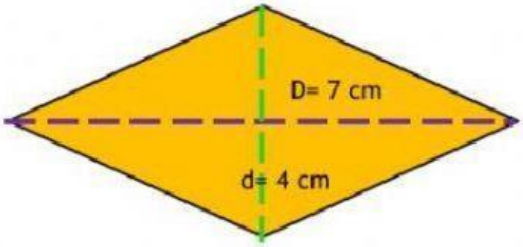

Solución:

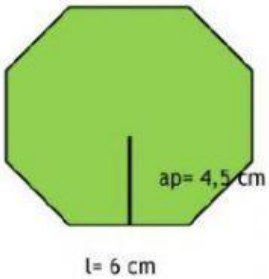

Solución:

LIVEWORKSHEETS

2. Clasifica los siguientes cuerpos geométricos. Arrastra cada figura a su lugar corespondiente.

POLIEDROS		CUERPOS REDONDOS		
PRISMA	PIRÁMIDE	CILINDRO	CONO	ESFERA

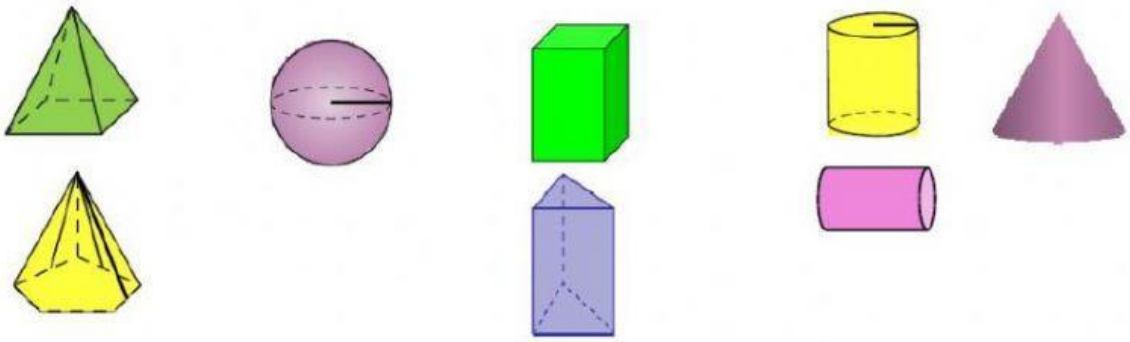

3. Indica el nombre de los elementos de estos cuerpos geométricos

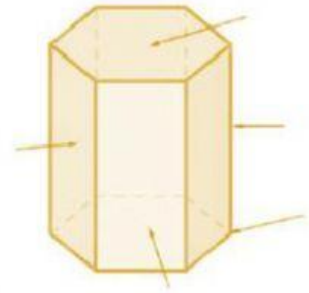

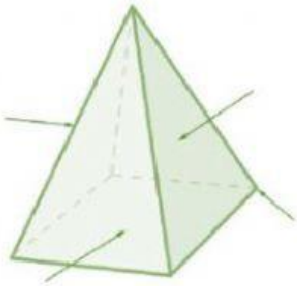

LIVEWORKSHEETS

4. Escribe, debajo de cada ilustración, el nombre del poliedro.

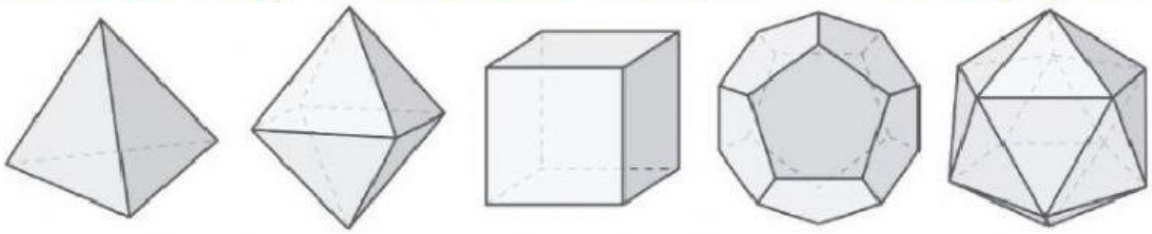

5. Completa estas oraciones.

Una urna tiene forma de .....

Un ladrillo tiene forma de .....

Un dado de ocho caras tiene forma de .....

Un dado de cuatro caras tiene forma de .....

6. Completa esta tabla.

Poliedro regular	Cubo		Octaedro		
Polígono de sus caras				Pentágono	Triángulo equilátero
Número de caras		4			

LIVEWORKSHEETS