Elementos de Geometría

1. Une con una línea el concepto con la imagen correcta.

- Rayo
- Segmento
- Recta
- Plano



2. Selecciona la alternativa correcta para cada definición.

- Es una línea que no tiene inicio ni final
- Es una superficie plana, donde van los puntos y la líneas.
- Es una línea que tiene inicio y final
- Es una línea que se conoce su inicio , pero no su finlal

LIVEWORKSHEETS

3. ¿Que linea debo utilizar para dibujar las siguientes imágenes?

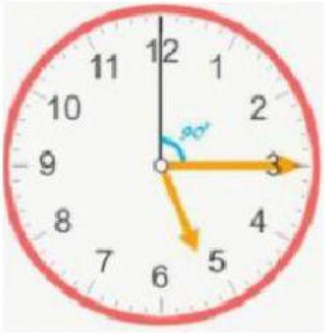

SEGMENTO **RAYO** **RECTA**

4. Resuelve los siguientes problemas, elige la respuesta correcta.

Juan decide trazar un línea que tiene 15.2 cm en su cuaderno ¿Qué tipo de línea habrá utilizado.

Pedro construyo con 3 líneas 2 ángulos, ¿Qué tipo de líneas utilizo?

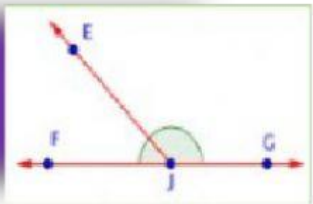

LIVEWORKSHEETS

5. Elige el nombre correcto para los siguientes elementos de Geometría..

a) •M

b) $\overrightarrow{HL}$

c) $\overleftrightarrow{RS}$

d) ▱M

e) $\overrightarrow{DO}$

f) $\overline{BC}$

LIVEWORKSHEETS