ACTIVIDAD INTERACTIVA

ROTACIÓN DE FIGURAS

1. Identifica el movimiento que corresponde a cada imagen y une con una línea según corresponda:

A

B

C

Traslación **Reflexión** **Rotación**

2. Señala la imagen en la que el animal se muestra rotado:

A

B

3. Señala las imágenes en las que el animal se muestra rotado:

A



B

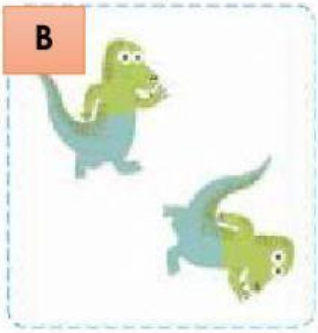

C



D



LIVEWORKSHEETS

4. Identifica el movimiento que corresponde a cada imagen y une con una línea según corresponda:

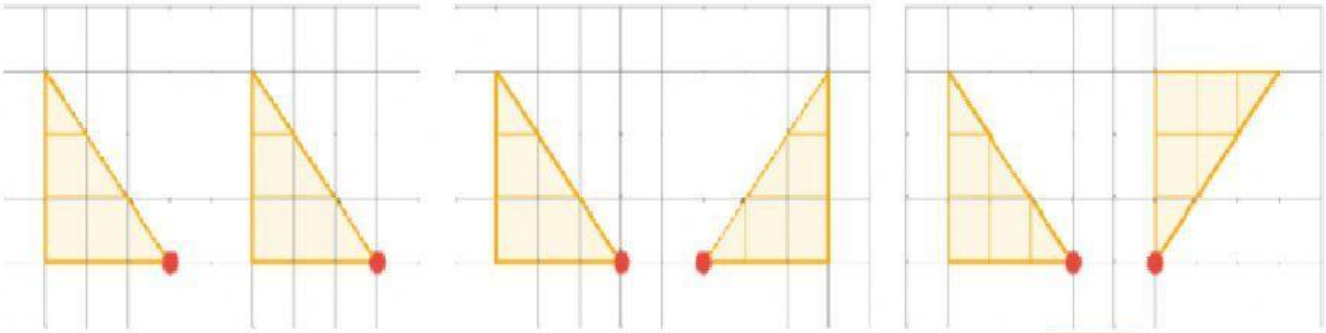

A B C

Reflexión Traslación Rotación

5. Escoge la figura que muestra un giro de 180° hacia la izquierda:

A



B

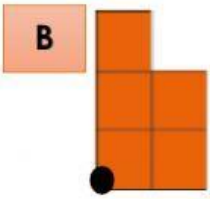

C



D



LIVEWORKSHEETS