PHIẾU HỌC TẬP

1 Hai phép tính nào dưới đây có cùng kết quả?

60 - 30

34 + 1

30 + 5

40 + 20

20 + 40

80 - 50

2 Số?

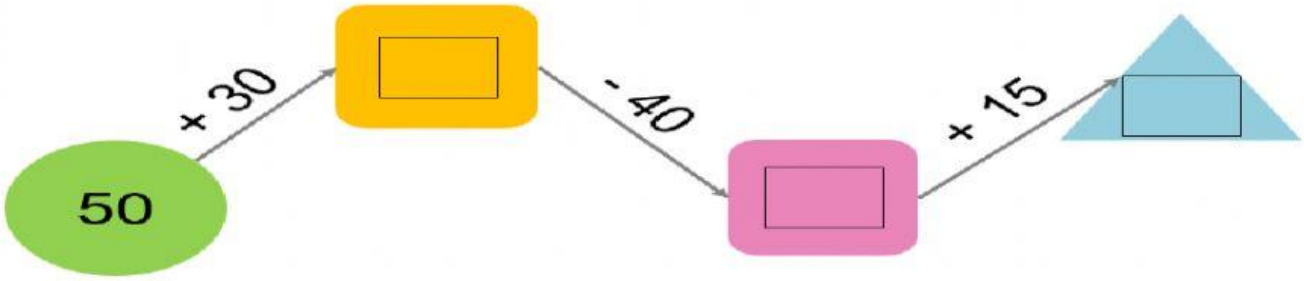

3 Trên thuyền có 12 hành khách, đến bến có 3 hành khách lên thuyền. Hỏi lúc đó trên thuyền có tất cả bao nhiêu hành khách?



Bài giải

Trên thuyền có tất cả số hành khách là:

☐ + ☐ = ☐ (người)

Đáp số: ☐ người

LIVEWORKSHEETS

4 Tìm chữ số thích hợp.

$$\begin{array}{r} 36 \\ +\ \square 2 \\ \hline 7\square \end{array} \qquad \begin{array}{r} \square 8 \\ -\ 46 \\ \hline 5\square \end{array} \qquad \begin{array}{r} 5\square \\ +\ \square 2 \\ \hline 87 \end{array}$$

5 Đàn trâu và bò của nhà bác Bình có 28 con, trong đó có 12 con trâu. Hỏi bác Bình có bao nhiêu con bò?



Bài giải

Bác Bình có số con bò là:

$\square - \square = \square$ (con)

Đáp số: $\square$ con bò

6 Đ, S?

$$\begin{array}{r} 35 \\ +\ 4 \\ \hline 75 \end{array} \square \qquad \begin{array}{r} 59 \\ -\ 6 \\ \hline 53 \end{array} \square \qquad \begin{array}{r} 87 \\ -\ 32 \\ \hline 55 \end{array} \square$$

LIVEWORKSHEETS

7 Những phép tính nào dưới đây có kết quả bé hơn 50?



7 Những phép tính nào dưới đây có kết quả lớn hơn 50?



LIVEWORKSHEETS