MISIONEROS CLARETIANOS
Escuela Básica La Presentación
Leonidas Plaza 2700 y Bolivia
Guayaquil – Ecuador

Escuela Claretiana
La Presentación

Una Institución al Servicio de la Vida
y la Dignidad del Ser Humano

EXAMEN DEL PRIMER QUIMESTRE

Datos informativos

Nombre:

Fecha:

Curso: 3°

Paralelo:

Asignatura: Matemática

Docentes: Genoveva Chica

Indicaciones Generales:

Art. 223.- Deshonestidad académica. Se considera como deshonestidad académica presentar como propios productos académicos o intelectuales que no fueren resultado del esfuerzo del estudiante o de cualquier miembro de la comunidad educativa, o incurrir en cualquier acción que otorgue una ventaja inmerecida a favor de uno o más miembros de la comunidad educativa de conformidad con lo prescrito en el presente Reglamento y el Código de Convivencia institucional.

- **Realice su Evaluación Parcial con honestidad**
- **Lea con atención las cuestiones, piense y conteste según instrucciones.**

1.- A PARTIR DEL CONJUNTO UNIVERSO PONGA NOMBRE Y FORMA DOS SUBCONJUNTOS.



LIVEWORKSHEETS

2.- UNE LOS PUNTOS EN LA CUADRICULA PARA FORMAR EL POLÍGONO Y COMPLETE.

a.- Nombre del polígono

_____

b.- Número de vértices

_____

c.- Número de lados

_____

d.- Número de ángulo

_____

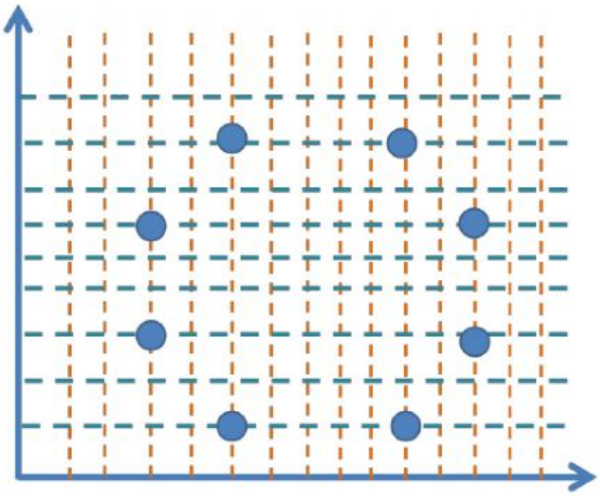

3.- EN LA SIGUIENTE SOPA DE LETRA ENCUENTRA NÚMEROS ORDINALES Y LUEGO ESCRIBELOS.

D	E	C	I	M	O	S	E	X	T	O
E	T	E	R	C	E	R	O	I	L	O
C	F	O	O	M	O	S	E	G	I	R
I	E	O	A	M	T	R	R	E	R	E
M	O	R	E	R	N	I	L	T	E	M
O	O	E	I	R	I	E	P	E	R	I
N	T	M	I	G	U	S	I	M	O	R
O	E	I	R	E	Q	A	G	A	R	P
V	S	R	A	T	O	L	A	P	U	O
E	P	P	S	C	M	D	O	R	S	M
N	S	E	P	T	I	M	O	N	K	I
O	M	O	M	I	S	E	G	I	V	S
O	T	R	I	G	E	S	I	M	O	E
L	P	K	R	I	G	E	S	S	M	G
P	D	D	E	C	I	M	O	K	J	I
M	W	E	R	V	V	G	H	V	B	V

_____
_____
_____
_____
_____
_____
_____
_____
_____
_____
_____
_____
_____

4.- RESUELVE LA ADICIÓN, SELECIONE EL RESULTADO Y UBIQUE SUS TERMINOS.

SUMA CONREAGRUPACIÓN					
			◯	◯	
	+		9	7	8
			2	5	6

1.234	1.243

SUMA TOTAL	SUMANDOS

LIVEWORKSHEETS

5.- COLOCA CADA IMAGEN QUE TENGA FORMA DE CADA CUERPO GEOMÉTRICO.

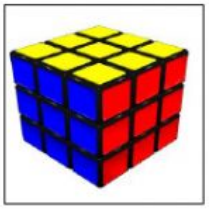


6.- DICTADO DE CANTIDADES EN NÚMEROS Y REALICE LA ESCRITURA.

LIVEWORKSHEETS

7.- OBSERVA EL CARTEL DE LOS ANIMALES QUE LA EXPLORADORA HA VISTO, COLOCA LAS CASILLAS PARA COMPLETAR.

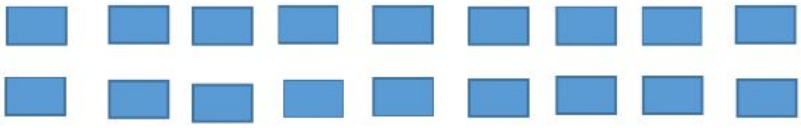

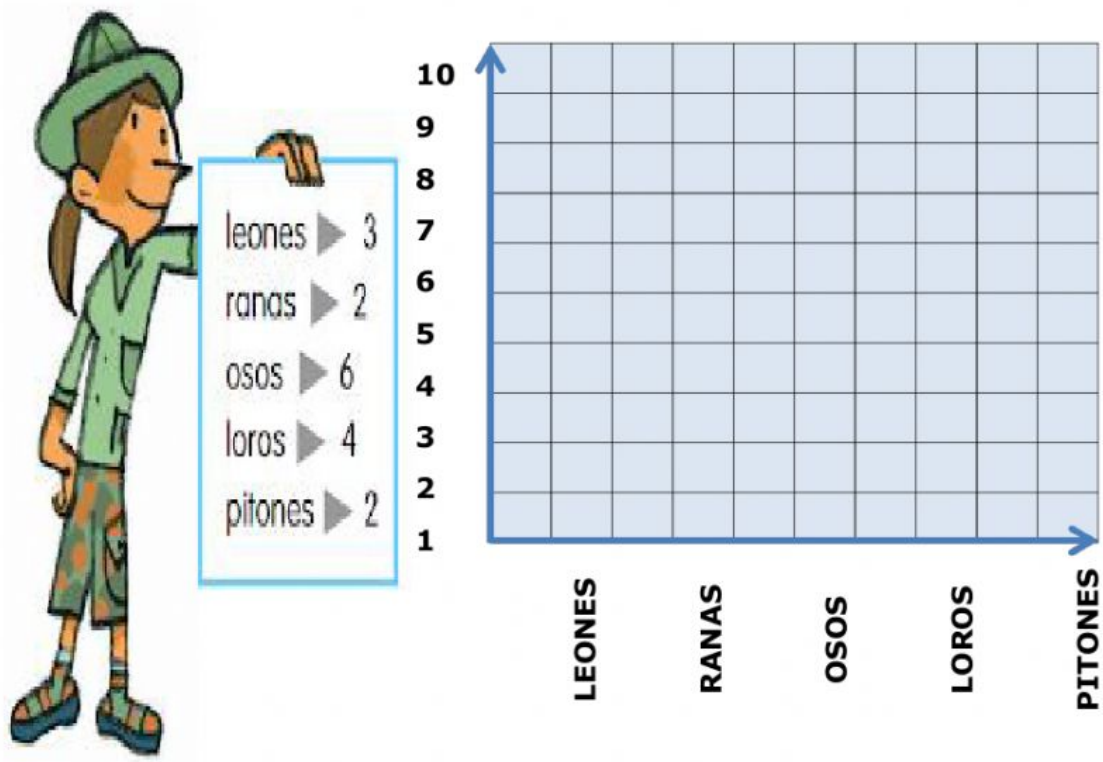

8.- HALLA EL PERÍMETRO DE LAS SIGUIENTES FIGURAS, ENCUENTRA LA RESPUESTA CORRECTA.



19cm

a.- 92 cm
b.- 59 cm
c.- 70 cm
d.- 95 cm

22cm

a.- 85 cm
b.- 88 cm
c.- 84 cm
d.- 95 cm

LIVEWORKSHEETS

9.- EN LOS SIGUIENTES OBJETOS ¿CÚAL ES LA MEDIDA MAS CONVENIENTE PARA MEDIR? MARCA CON UNA X SI ES METRO (M) O CENTRIMETRO (cm) .

a.

b.

c.

d.

M	cm	M	cm	M	cm	M	cm

10.- DESARROLLE LA SUSTRACCIÓN CON REAGRUPACIÓN, SELECCIONE EL RESULTADO Y COLOQUE SUS TERMINOS.

RESTA CON REAGRUPACIÓN					
			8	0	4
			2	6	9

355	535

MINUENDO	DIFERENCIA	SUSTRAENDO

LIVEWORKSHEETS