UNIT 10 : GERHANA MATAHARI

NAMA :

KELAS :

A: SUSUN KEJADIAN GERHANA MATAHARI MENGIKUT URUTAN YANG BETUL.(*Seret gambar dalam kotak dan tulis jawapan bagi setiap gambar)



B: TANDAKAN (√) BAGI GAMBAR RAJAH GERHANA MATAHARI YANG BETUL.

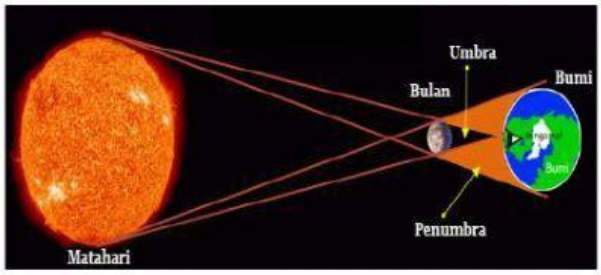

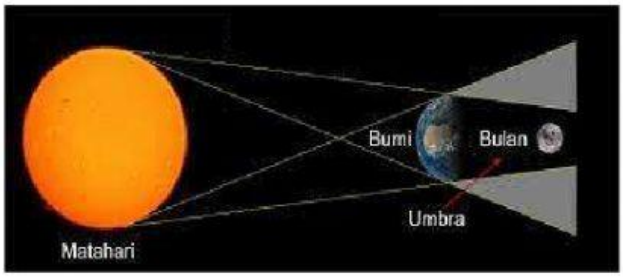

LIVEWORKSHEETS

UNIT 10 : GERHANA MATAHARI

NAMA :

KELAS :

A: LENGKAPKAN PERNYATAAN DI BAWAH DENGAN JAWAPAN YANG BETUL.

1. Fenomena Gerhana Matahari terjadi apabila Matahari, Bulan dan Bumi berada berada dalam satu ……. .

2. Gerhana Matahari berlaku apabila bulan berada dalam fasa …… .

3. Gerhana matahari boleh berlaku sekurang-kurangnya …… setahun dan tempoh kejadian hanya beberapa minit sahaja.

4. Gerhana Matahari penuh berlaku di kawasan …… .

5. Semasa Gerhana Matahari penuh berlaku, kawasan persekitaran akan menjadi …….. seperti waktu …… .

@CheguNurul

LIVEWORKSHEETS