Traslación en el plano

Arrastra los puntos amarillos donde indica la coordenada

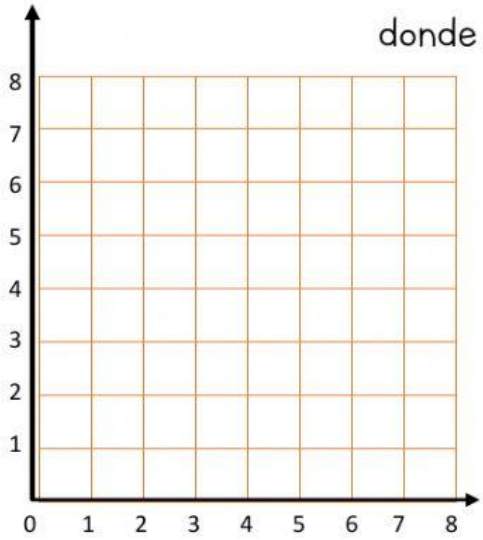

- (1,1) (,)
- (1,4) (,)
- (4,1) (,)
- (4,4) (,)

Traslada el cuadrado 3 lugares a la derecha y 2 hacia arriba. Y escribe las coordenadas aquí

2. ¿Cuánto se trasladó la figura **1** hasta la figura **2**?

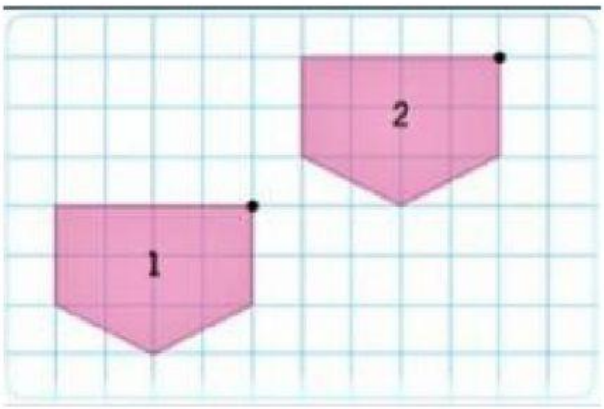

- 5 izquierda y 4 abajo
- 4 derecha y 3 arriba
- 5 derecha y 3 arriba
- 3 izquierda y 5 abajo

3. Determina cuál imagen representa una traslación.

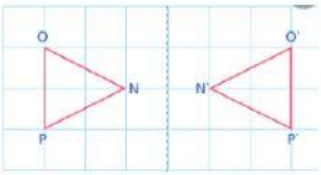

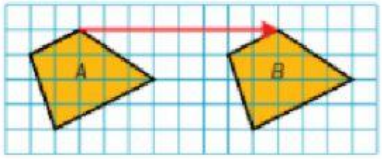

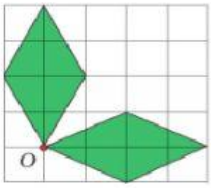

LIVEWORKSHEETS
LIVEWORKSHEETS