EM HỌC TOÁN LỚP 1-TẬP ĐẾM

Bài 1. Em hãy cho biết trong hình, theo hàng ngang hãy đếm số lượng cá, số lượng hình lập phương và điền vào chỗ trống.

a)

b) 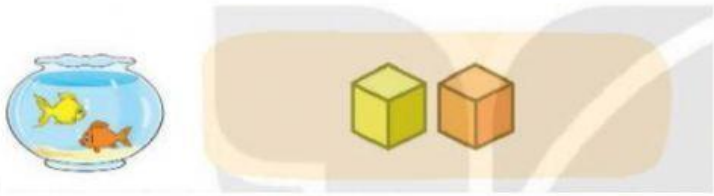

c)

d) 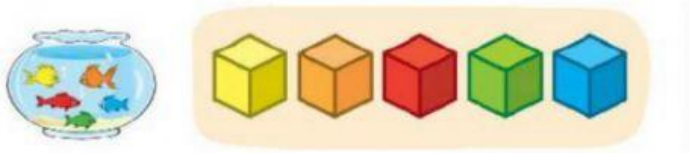

e)

Bài 2. Em hãy nhìn hình và điền số vào ô trống.

		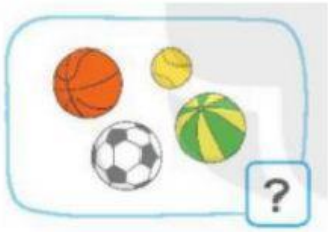

LIVEWORKSHEETS



Bài 3. Em hãy điền số vào ô trống nhé.



Bài 4. Em hãy chọn số thích hợp với số con vật



LIVEWORKSHEETS

LIVEWORKSHEETS