ใบกิจกรรมที่ 1

เรื่อง แรงลัพธ์

ชื่อ.....ชั้น.....เลขที่.....

คำชี้แจง จงหาแรงลัพธ์จากแผนภาพการออกแรง พร้อมอธิบายทิศทางที่วัตถุเคลื่อนที่

1.

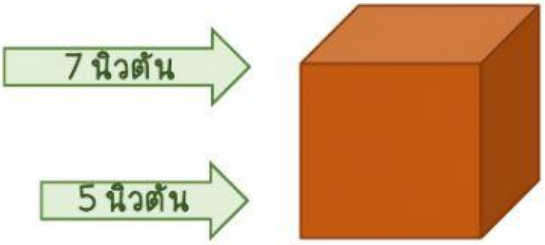

แรงลัพธ์เท่ากับ.....นิวตัน

วัตถุเคลื่อนที่ไปทาง.....

2.

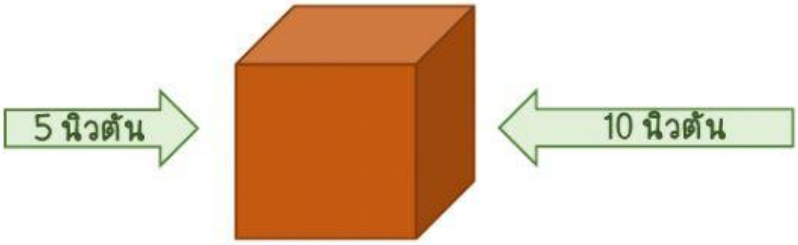

แรงลัพธ์เท่ากับ.....นิวตัน

วัตถุ.....

LIVEWORKSHEETS

3.



แรงลัพธ์เท่ากับ.....นิ้วต้น

วัตถุ.....

4.

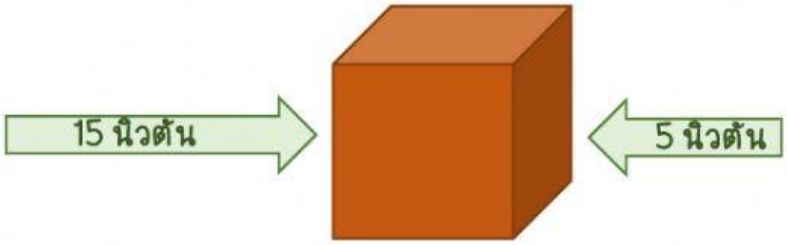

แรงลัพธ์เท่ากับ.....นิ้วต้น

วัตถุ.....

5.

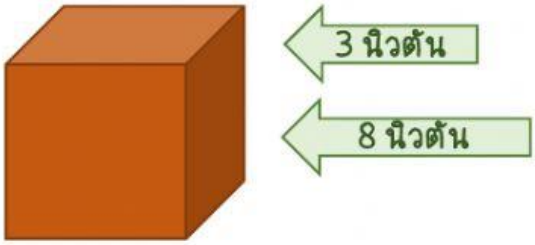

แรงลัพธ์เท่ากับ.....นิ้วต้น

วัตถุ.....

LIVEWORKSHEETS