แบบประเมินผลการจัดการเรียนรู้ปลายภาค ภาคเรียนที่ 1/2564

วิชาวิทยาศาสตร์ ชั้นประถมศึกษาปีที่ 3 , Grade 3

ตอนที่ 3 ให้นักเรียนบอกลักษณะของแรงในภาพว่าเป็นแรงสัมผัส หรือ แรงไม่สัมผัส

1.

2.

3. 

4.

5.

6. 

7.

8.

9.

10. 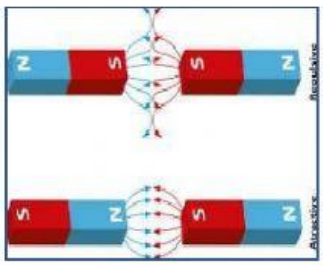

ชื่อ.....ชั้น.....เลขที่.....

LIVEWORKSHEETS