Después de arreglar todas las plantas, Daniel realizó algunos cálculos de cuántas flores le quedaron en su jardín.

A- Daniel tenía en su jardín 25 rosas y le rompieron 4 ¿Cuántas rosas le quedaron?



29	11	21

B- Daniel contó 15 margaritas en el parque y 12 tréboles en el bosque ¿cuántas plantas contó en total?



3	27	17

LIVEWORKSHEETS

C- Gabi, la mamá de Daniel, trabaja en una florería. Observa el cuadro e indica si es verdadera o falsa la oración.

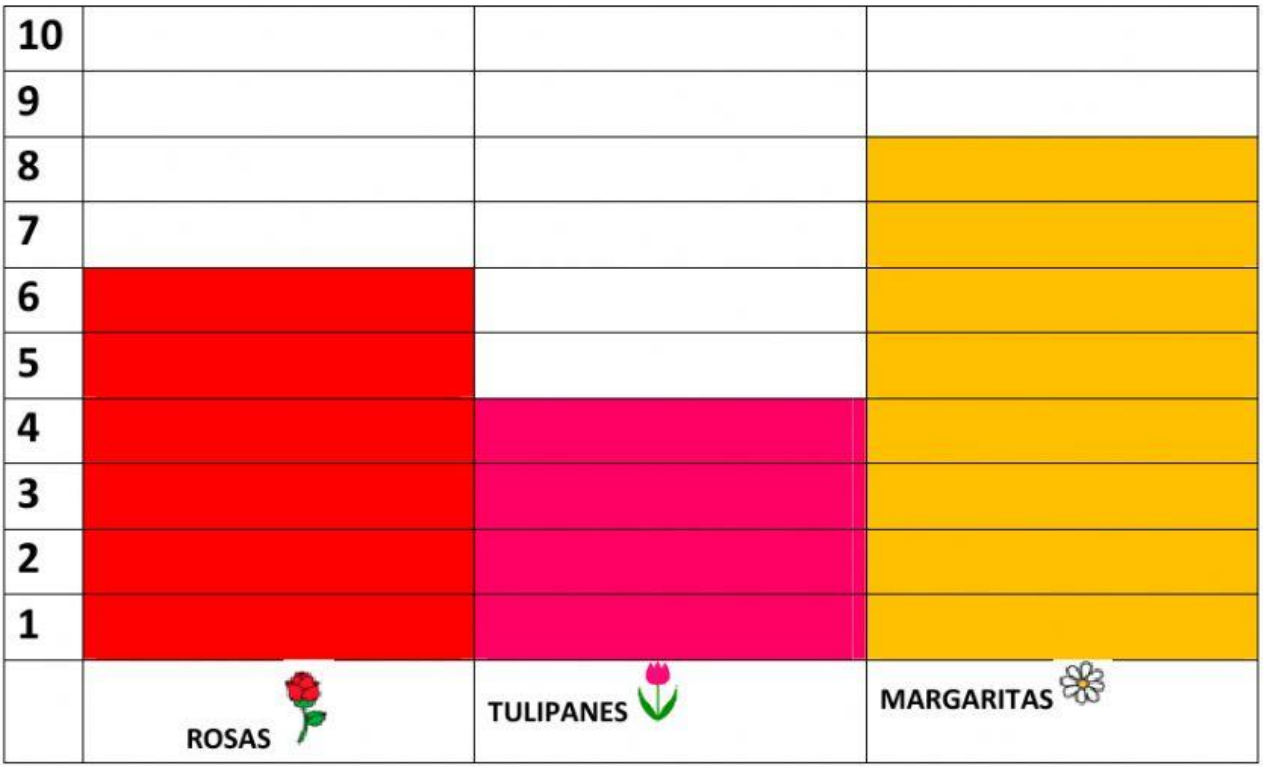

Gabi tiene **más** que . V F

Gabi tiene la misma cantidad de que de . V F

Faltan 8 para tener la misma cantidad que . V F

D- Armamos el número. Arrastra al centro de cada flor el número correcto.

LIVEWORKSHEETS

60+3



30+7

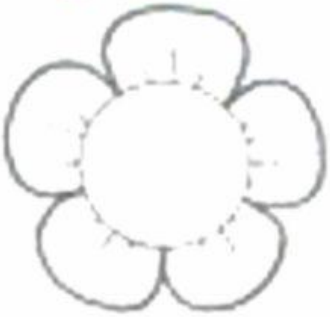

50+3



53

37

63

LIVEWORKSHEETS