INSTITUCIÓN EDUCATIVA 3721

"SANTA ROSA"

ÁREA: MATEMÁTICA

NOMBRE Y APELLIDOS : _____ GRADO Y SECCIÓN: _____

FRACCIONES

1. Resuelve las operaciones de fracciones:

$$\frac{8}{2} - \frac{4}{3} = \frac{\square - \square}{\square} = \frac{\square}{\square} = \frac{\square}{\square}$$

$$\frac{1}{2} + \frac{2}{6} = \frac{\square + \square}{\square} = \frac{\square}{\square} = \frac{\square}{\square}$$

$$\frac{3}{5} x \frac{4}{7} = \frac{\square}{\square}$$

$$\frac{2}{6} \div \frac{1}{5} = \frac{\square}{\square} = \frac{\square}{\square}$$

2. Diego compra un saco de limón de 28 kg, si ya vendió la cuarta parte del saco. ¿Cuántos kilogramos le falta vender?

Le falta vender ..... kg

LIVEWORKSHEETS

TANTO POR CIENTO

1. Une Representa en fracción y porcentaje:







$\frac{21}{100} = 21\%$

$\frac{74}{100} = 74\%$

$\frac{46}{100} = 46\%$

Completa

El 20% de 400 → $\frac{\square}{\square} x\ 400 = \underline{\square}$

¿Qué tanto por ciento es 6 de 30?

$\frac{\square}{\square} x100\% = \underline{\square}\%$

LIVEWORKSHEETS