TẾ BÀO ĐỘNG VẬT VÀ THỰC VẬT

TÊN HS:_____**Lớp:** _____

1. Nhìn vào bức tranh và hoàn thành chú thích với các cụm từ sau:

Nhân – Ti thể – Thành tế bào – Màng tế bào – Tế bào chất – Lụclạp.

TẾ BÀO ĐỘNG VẬT

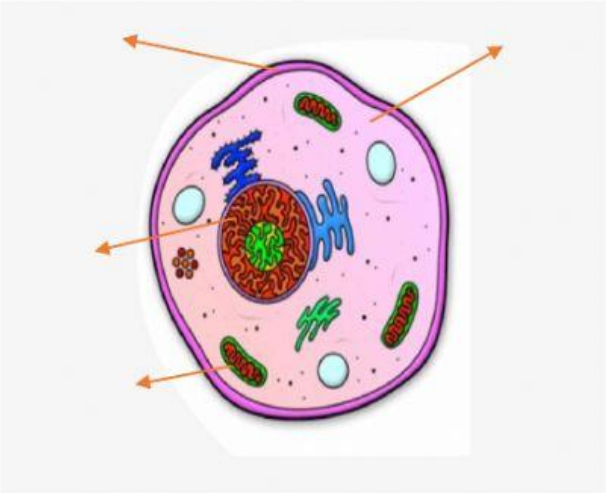

TẾ BÀO THỰC VẬT

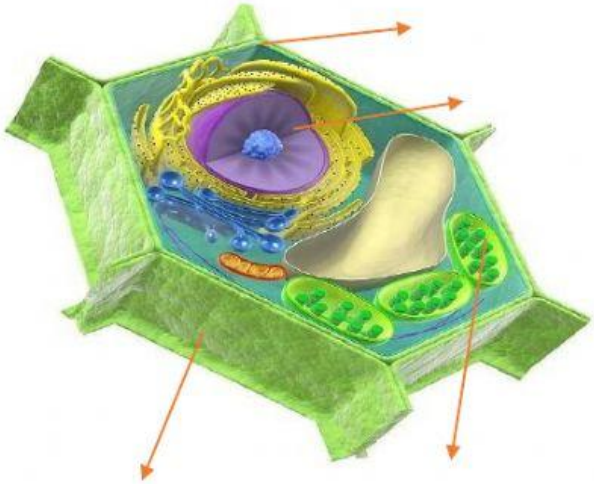

2. Read and match the parts of the cells to their functions.

NHÂN **MÀNG TẾ BÀO** **TẾ BÀO CHẤT** **LỤC LẠP**

TI THỂ **THÀNH TẾ BÀO**

- _____ Là chất keo lỏng chứa các bào quan, là nơi diễn ra các hoạt động sống của tế bào.
- _____ Lớp màng mỏng, kiểm soát sự di chuyển của các chất ra và vào tế bào
- _____ Là trung tâm điều khiển các hoạt động sống của tế bào, chứa vật chất di truyền

LIVEWORKSHEETS
LIVEWORKSHEETS

- _____ Chứa diệp lục, giúp tế bào tự tổng hợp chất hữu cơ.
- _____ Chứa xenlulozo giúp bảo vệ và định hình tế bào
- _____ Tham gia hoạt động hô hấp của tế bào và giải phóng năng lượng

3. Chọn cụm từ gợi ý phù hợp để điền vào chỗ trống sau:

Màng tế bào – Cần ánh sáng tạo chất hữu cơ – Tế bào chất – Thành tế bào – Cần thức ăn để cung cấp năng lượng – Nhân – Lục lạp

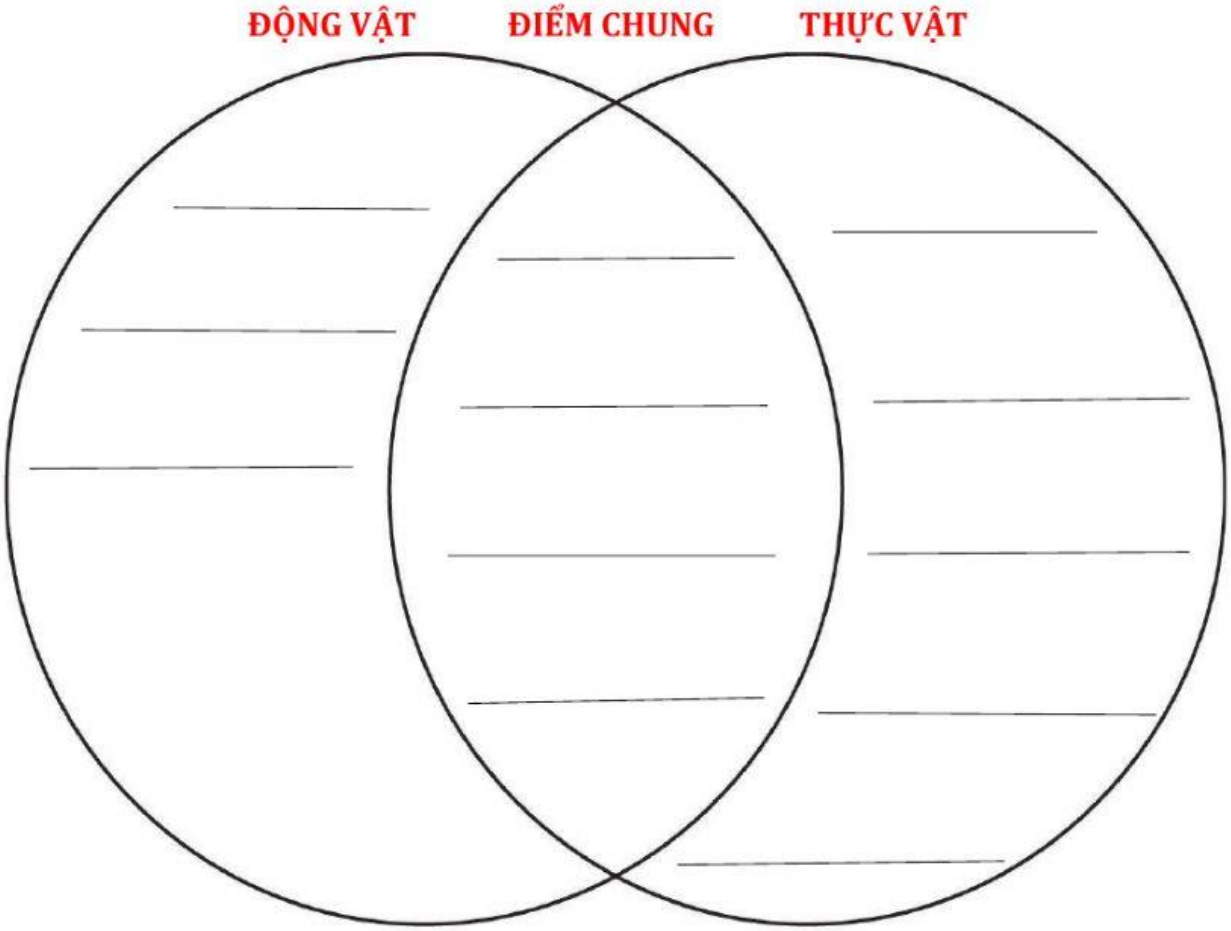

LIVEWORKSHEETS
LIVEWORKSHEETS

LIVEWORKSHEETS
LIVEWORKSHEETS