ГЕОГРАФСКИ РЕГИОНИ – 11кл.

Задача 1. Съотнесете „държава-регион“, така че да е вярно /Коя държава в кой регион се намира/.

ЕВРОПА	**ШВЕЦИЯ**
	САЩ
	МЕКСИКО
	БРАЗИЛИЯ
АЗИЯ	**ФРАНЦИЯ**
	КИТАЙ
	КАНАДА
СЕВЕРНА АМЕРИКА	**АРЖЕНТИНА**
	ИНДИЯ
	ГЕРМАНИЯ
	ВЕЛИКОБРИТАНИЯ
ЮЖНА АМЕРИКА	**ЧИЛИ**
	КОСТА РИКА
	КОЛУМБИЯ
	НОРВЕГИЯ
	КАЗАХСТАН

Задача 2. Поставете на карта къде се намират държавите от Европа

РУСИЯ ФРАНЦИЯ ГЕРМАНИЯ ИСПАНИЯ ВЕЛИКОБРИТАНИЯ

ШВЕЦИЯ ИТАЛИЯ УКРАЙНА БЪЛГАРИЯ ПОЛША

LIVEWORKSHEETS

Задача 3. Разпознайте на коя държава принадлежи флага

	 АВСТРИЯ ВЕЛИКОБРИТАНИЯ АВСТРАЛИЯ САЩ	 АРЖЕНТИНА БРАЗИЛИЯ КОЛУМБИЯ МЕКСИКО

 АРЖЕНТИНА КИТАЙ БРАЗИЛИЯ ИНДИЯ	 МАРОКО КИТАЙ КАНАДА АВСТРИЯ	 БЕЛГИЯ ГЕРМАНИЯ ФРАНЦИЯ ПОЛША

 КИТАЙ ТАЙВАН ЯПОНИЯ ТАЙЛАНД	 КАЗАХСТАН Р.КОРЕЯ ФИЛИПИНИ КИТАЙ	 ВЕЛИКОБРИТАНИЯ АВСТРАЛИЯ НОВА ЗЕЛАНДИЯ КАНАДА

 САЩ ЧИЛИ КАНАДА ИСПАНИЯ	 БЪЛГАРИЯ РУСИЯ СЪРБИЯ СЛОВАКИЯ	 ИТАЛИЯ ИНДИЯ МЕКСИКО БАНГЛАДЕШ

LIVEWORKSHEETS

 ФРАНЦИЯ ИТАЛИЯ НИДЕРЛАНДИЯ ЛЮКСЕМБУРГ	 ИТАЛИЯ ПОТРУГАЛИЯ ПОЛША ИРЛАНДИЯ	 ШВЕЦИЯ НОРВЕГИЯ ФИНЛАНДИЯ ИСЛАНДИЯ

Задача 4. Поставете на картата къде се намират държавите от света

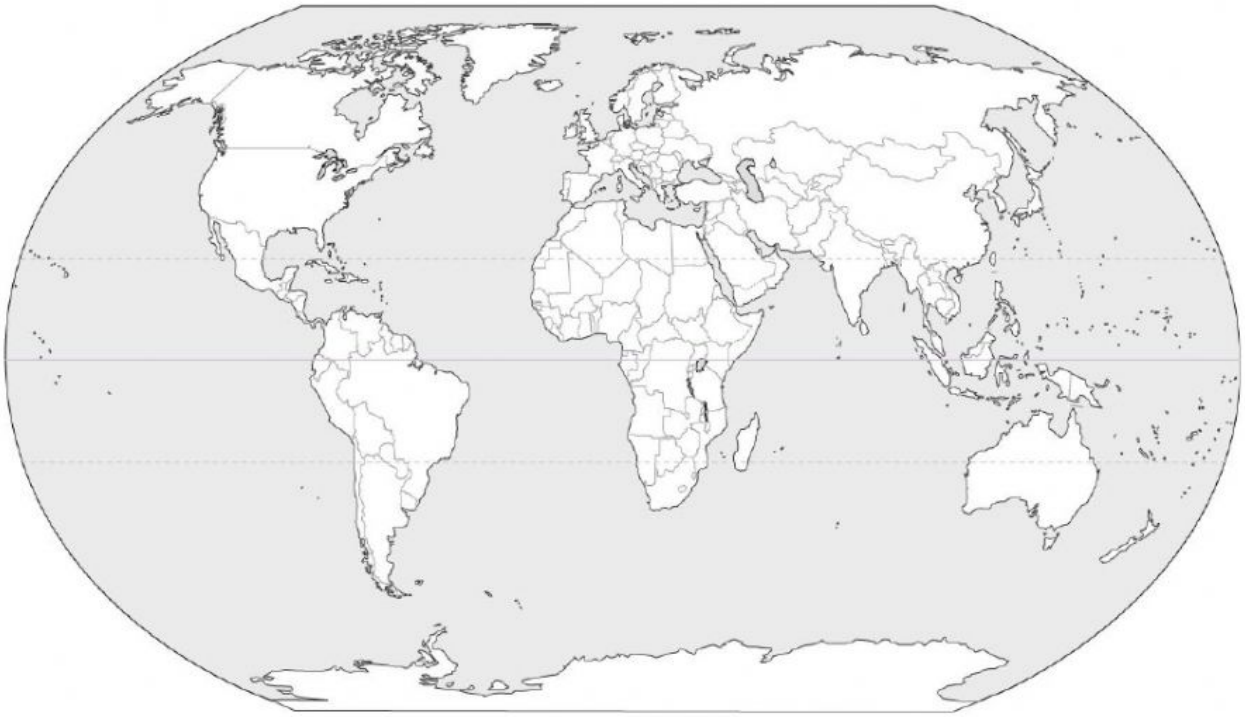

САЩ	КИТАЙ	АВСТРАЛИЯ	КАНАДА	БРАЗИЛИЯ
РУСИЯ	ИНДИЯ	ЯПОНИЯ	МЕКСИКО	АРЖЕНТИНА

LIVEWORKSHEETS