NHẬN DẠNG HÌNH THANG CÂN

Tính các góc còn thiếu trong mỗi hình và xét xem tứ giác đã cho có là hình thang cân không?

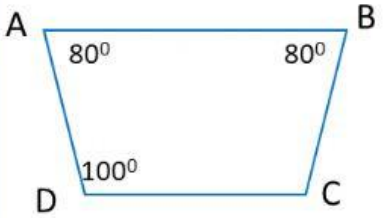

$\widehat{C} =$

Tứ giác ABCD

$\widehat{K} =$

Tứ giác IJKL

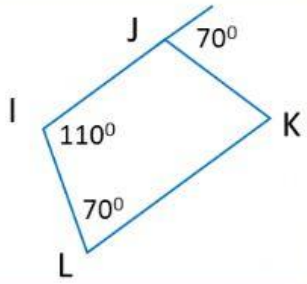

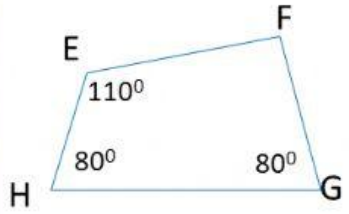

$\widehat{F} =$

Tứ giác EFGH

$\widehat{Q} =$

Tứ giác MNOP

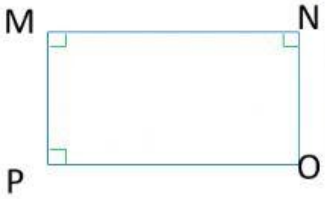

LIVEWORKSHEETS