PHIẾU ÔN TẬP TOÁN – TIẾT 2

1. Điền số thích hợp vào ô trống:

Hình trên có ……hoa sen.

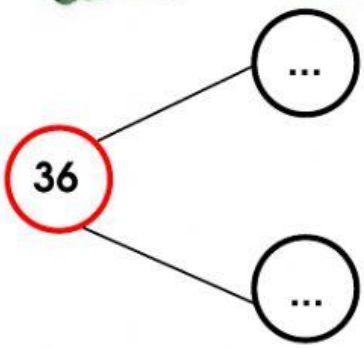

2. Điền số thích hợp vào chỗ trống:

	91	92		94	95		97		

	89	88			85			82	81

3. Điền số thích hợp vào ô trống:

- Mười một: ☐
- Sáu mươi mốt: ☐
- Bảy mươi tư: ☐
- Một trăm: ☐

4. Điền dấu > < = vào ô trống:

78 ☐ 72

67 ☐ 9

90 + 4 ☐ 4 + 90

40 + 1 ☐ 40 + 2

LIVEWORKSHEETS
LIVEWORKSHEETS

5. Sắp xếp các số 38 ; 83 ; 54 ; 45 ; 90

- Theo thứ tự từ bé đến lớn: ☐ ; ☐ ; ☐ ; ☐ ; ☐
- Theo thứ tự từ lớn đến bé: ☐ ; ☐ ; ☐ ; ☐ ; ☐

6. Chọn xe chở nhiều dưa hấu nhất:

Số lượng quả dưa hấu trên mỗi xe được ghi trên hình vẽ



7. Tính nhẩm rồi điền kết quả vào ô trống:

9 – 2 + 3 = ☐ 80 + 10 – 30 = ☐ 90 – 20 – 30 = ☐

8. Đúng ghi đ , sai ghi s vào ô trống:

+ 6	– 58	– 94	+ 34
42	41	3	62
48 ☐	79 ☐	64 ☐	96 ☐

9. Điền số thích hợp vào ô trống:

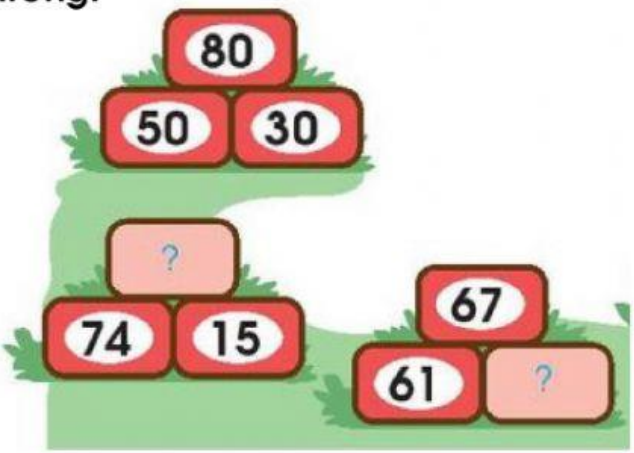

LIVEWORKSHEETS LIVEWORKSHEETS