TAREA 1: Lee las **UNIDADES** y las **DECENAS** que hay debajo de cada imagen y colócala en su lugar correspondiente en función del resultado.

3 D Y 7 U

5 D Y 0 6

1 D Y 9 U

0 D Y 9 U



7 D Y 7 U

10 U

2 D Y 3 U

4 D

6 D

65 U

4 D Y 4 U

1 D Y 3 U

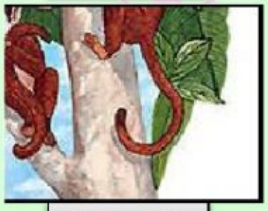

3 D Y 1 U

30 U

7 D Y 1 U

8 D

37	19	56	71
23	60	80	31
40	30	44	77
09	13	10	65

LIVEWORKSHEETS

TAREA 2: Números pares e impares.

EXPLICACIÓN: Escucha atentamente el vídeo. En él se explica cuáles son los números pares e impares. Es muy sencillo.

RECUERDA	**Los números pares son los que terminan en 0, 2, 4, 6 y 8.**
	Los números impares son los que terminan en 1, 3, 5, 7 y 9.

TAREA 3: Lee los números y marca <u>solo</u> los que son <u>impares</u>.

20 9 5 42 1

13 36 7 29

TAREA 4: Lee los números y marca <u>solo</u> los que son <u>pares</u>.

24 3 25 18 46

30 12 2 15

LIVEWORKSHEETS

Ejercicio: Suma los puntos de cada ficha de dominó y une mediante flechas.

1)



PAR

IMPAR

2)

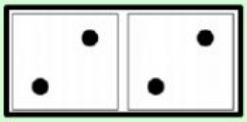

PAR

IMPAR

3)

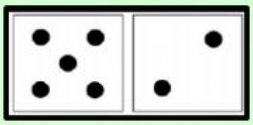

PAR

IMPAR

4)

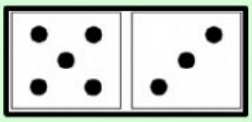

PAR

IMPA

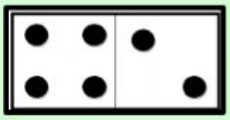

PAR

IMPA

Os dejo una canción muy divertida de los números pares e impares. Espero que os guste.

LIVEWORKSHEETS