# I.E. Gerardo Arias Copaja

**Miss Lita. 1"A" Miss Regina 1 "B" y Miss Ruth 1"C".**

**Comparamos cantidades**

**Leemos y observamos**




Adriana visitó el Bosque de Sho'llet, en Oxapampa, con su profesor y compañeros. Allí observaron hermosas orquídeas. ¿Cuántas orquídeas hay en total?

Hacemos

1 Comprendemos el problema.

a. Respondemos las preguntas.

- ¿Cuántas observaron las niñas y los niños? ☐
- ¿Cuántas observaron las niñas y los niños? ☐

b. Representamos con material base diez la cantidad de orquídeas y completamos.

LIVEWORKSHEETS

Hay ____ decena y ____ unidades.

. Hay ____ decena y ____ unidades

**c. Representamos con material base diez la cantidad de orquídeas.**



LIVEWORKSHEETS

**d. Coloreamos con una la respuesta.**

• Hay más orquídeas de color...

• Hay menos orquídeas de color...

**Observo las representaciones con el material BASE 10 , coloco los signos < > =**

**Y completo con los números en el TVP.**

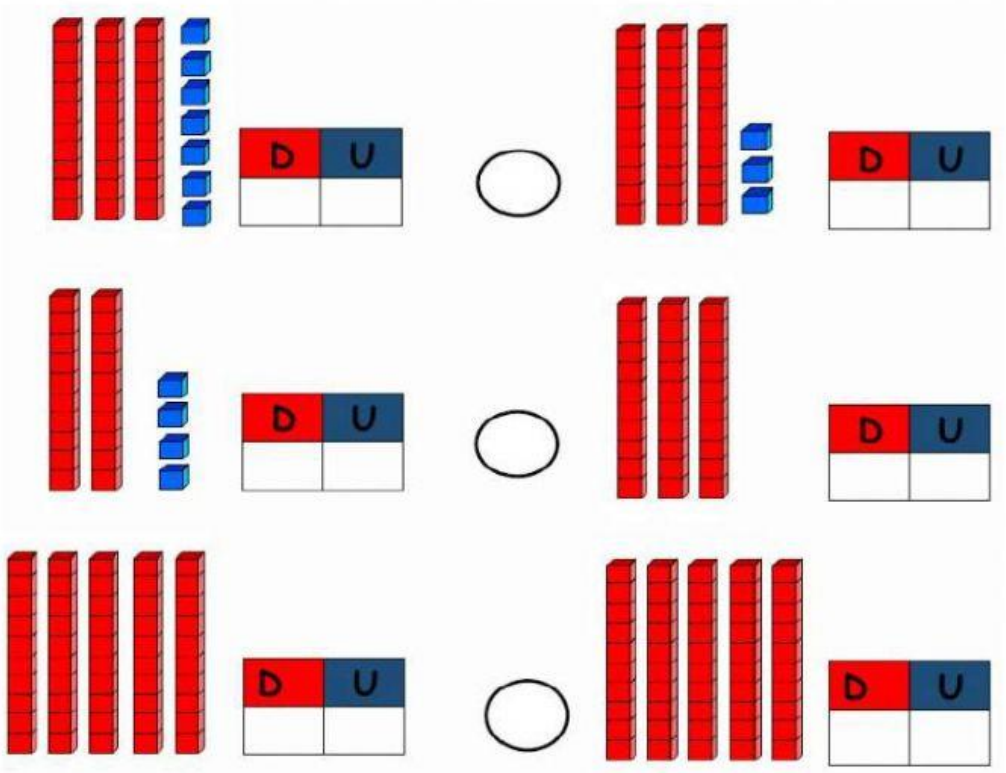


LIVEWORKSHEETS