4 Erreparatu zenbat pertsona bizi diren eraikineko solairu bakoitzean, eta osatu.

Solairu honetan bizi da pertsona gehien:

Solairu honetan bizi da pertsona gutxien:

- Zenbat pertsona bizi dira solairu hauetan? Marraztu abakoan.

4.a



6.a



2.a

- Zenbat pertsona bizi dira guztira azken bi solairuetan?



..... . solairuan .... pertsona bizi dira.

..... . solairuan .... pertsona bizi dira.

Azken bi solairuetan .... pertsona bizi dira guztira.

LIVEWORKSHEETS