PRUEBA DIAGNÓSTICO MATEMÁTICA

Nombre: _____

Grado: _____

Fecha: _____

Conteste las siguientes preguntas:

- Lea con atención y encierre en un círculo la respuesta correcta.

1.

¿Cuántos lápices de cera hay?

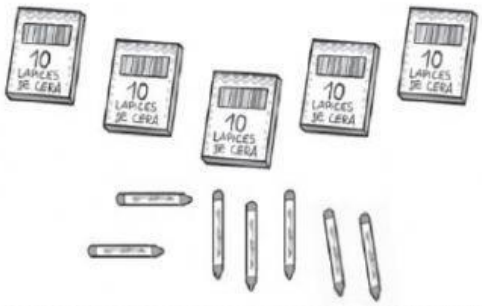

A. 57 lápices. B. 75 lápices. C. 50 lápices. D. 70 lápices.

2.

Cada una de estas tiras tiene 10 aspirinas. ¿En cuál de los dibujos hay ***veinticuatro*** aspirinas?

A.

B.

C.

D.

LIVEWORKSHEETS

3.

El número *noventa y ocho* se escribe:

A. 89

B. 98

C. 908

D. 980

4.

El número 46 se lee:

A. cuarenta y seis.

B. sesenta y cuatro.

C. cuatrocientos sesenta.

D. cuatrocientos seis.

5.

Marca la alternativa en que los números están ordenados de menor a mayor:

A. 70 - 68 - 45 B. 45 - 70 - 68 C. 68 - 70 - 45 D. 45 - 68 - 70

LIVEWORKSHEETS

6.

¿Cuál de las siguientes descomposiciones NO corresponde al número noventa y ocho?

A. 50 + 40 + 8

B. 10 + 10 + 8

C. 90 + 8

D. 10 + 25 + 60 + 3

7.

¿Cuál es el resultado de la adición 50 + 34 + 7?

A. 91 B. 87 C. 81 D. 94

8.

En un gallinero hay 65 gallinas. 21 son de color café y las demás son blancas. ¿Cuántas gallinas blancas hay en el gallinero?

A. 44 gallinas blancas.

B. 86 gallinas blancas.

C. 65 gallinas blancas.

D. 21 gallinas blancas.

9.

En la caja que se observa hay 24 caramelos. La tapa no permite verlos todos. ¿Cuántos caramelos están tapados?



A. 24 caramelos.

B. 14 caramelos.

C. 10 caramelos.

D. 4 caramelos.

LIVEWORKSHEETS

10.

¿En cuál de los siguientes dibujos hay SOLO triángulos?

A.



B.

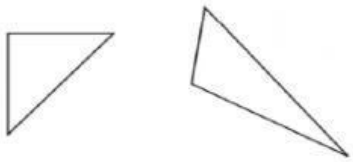

C.

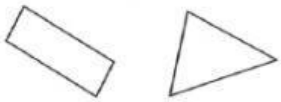

D.

LIVEWORKSHEETS