Actividad

Escribe el nombre del número al frente.

1.602.965

2.562.235

658.635

Escribe las partes del computador

Escribe el nombre de los animales vertebrados

Animales vertebrados				
				

LIVEWORKSHEETS

Relaciona

Relaciona con una linea el color de la figura:

Azul



Verde

Naranja



Amarillo

Rojo

LIVEWORKSHEETS

Cuestionario

El sistema locomotor esta formado por los sistemas:

a. Sistema endocrino y muscular
b. Sistema muscular y óseo
c. Sistema óseo y endocrino

Los dispositivos móviles son:

a. Los celulares
b. Los computadores
c. Los computados portátiles
d. Las tabletas
e. Xbox

Sopa de letra

Completa la sopa de letras

palabras

A	T	J	Q	M	W	F	V	Q	H	M	H	A	D
I	W	L	Q	C	O	M	P	U	T	A	D	O	R
F	P	G	G	D	W	U	E	U	J	F	G	W	A
O	M	F	F	Z	P	N	O	S	P	A	A	X	Y
J	A	N	J	J	E	A	F	H	D	L	T	V	Q
B	G	U	D	D	R	Y	N	F	N	E	O	C	K
T	E	Y	Z	D	R	R	T	E	C	L	A	D	O
Z	H	Z	T	K	O	W	U	S	N	R	Z	G	M
A	G	W	L	O	R	O	E	C	Z	D	K	M	S
V	B	P	E	T	J	C	I	R	S	S	U	H	U
I	H	Q	C	V	K	K	A	X	U	Z	U	O	Y
O	E	L	C	T	I	Q	V	J	Y	S	G	A	A
N	R	M	W	E	I	P	I	N	J	N	R	Y	V
T	N	I	G	S	P	A	N	T	A	L	L	A	X

www.educima.com

AVION
GATO
PANTALLA
TECLADO
COMPUTADOR
LORO
PERRO

LIVEWORKSHEETS

Completa la oración

La unidad funcional de todo ser vivo es: _____

Las maquinas conformada por una pieza son llamadas maquinas _____

Celula	simples

LIVEWORKSHEETS