UNIDAD EDUCATIVA DR. MANUEL BENJAMÍN CARRIÓN MORA

HONOR Y LEALTAD PARA LA LIBERTAD

ADOLFO KLINGER 12-341 Y JORGE GARCÉS TELFS. 2475688...691 AMIE 17H01083

EVALUACIÓN DIAGNOSTICA

ÁREA: MATEMATICA

AÑO LECTIVO 2021/ 2022

NOMBRE:……

FECHA:……..... 3°AÑO DE EGB: PARALELO: "___"

D.C.D.: **M.2.1.1.4** Identificar conjuntos según el número de elementos.

1.- ESCOJA el número correcto de cada conjunto.

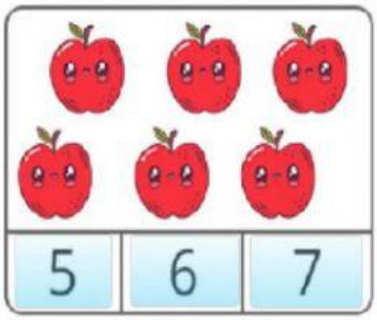

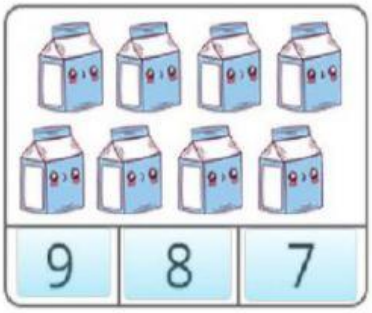

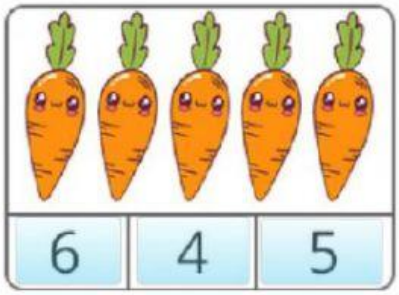

D.C.D.: **M.2.1.1.4** Agrupar objetos en decenas y unidades con material concreto.

2.- COMPLETE dentro del gráfico las decenas puras que faltan.

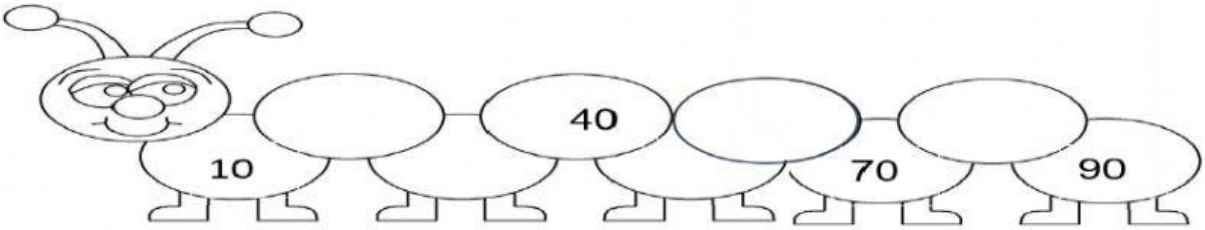

80 **50** **20** **60** **30**

D.C.D: **M.2.1.14.**Establecer relación de secuencia y de orden en un conjunto de números naturales.

3.- ESCRIBA el número anterior, entre y el posterior según corresponda.

ANTERIOR **ENTRE** **POSTERIOR**

LIVEWORKSHEETS

	56

74		76

23	

D.C.D: **M.2.1.15.**Establecer relación de secuencia y orden de números naturales utilizando material concreto y simbología matemática (> < =)

4.- PONGA el signo mayor, menor o igual según corresponda.

>	<	=
MAYOR	MENOR	IGUAL

40_____60

98_____12

27_____58

18_____13

35_____35

D.C. D: **M.2.1. Identificar los días, meses, años en la vida cotidiana.**

5.- ESCRIBA (**V**) si es verdadero y(**F**) si es falso.

- El año tiene 12 meses. ( )
- Una semana tiene 3 días. ( )
- Un día tiene 24 horas ( )

D.C.D: **M.1.21.2**. Identificar las características que distinguen a las figuras geométricas rectangulares y triangulares.

6.- Una con líneas cada figura geométrica con su respectivo nombre.

Círculo

Triángulo

Cuadrado



LIVEWORKSHEETS

D.C.D: **M.1.21.2**. Realizar adiciones y sustracciones con los números hasta 9 999, con material concreto, mentalmente, gráficamente y de manera numérica.

7.- RESUELVA las siguientes sumas.

3 5 + 6 3 ☐ ☐	4 8 + 3 1 ☐ ☐	5 5 + 2 3 ☐ ☐

8.- RESUELVA las siguientes restas y **UNA** con la respuesta correcta.

	D	U
-	8	4
	3	4

12

	D	U
-	9	6
	5	3

50

	D	U
-	7	8
	6	6

43

D.C. D: **M.2.1.15.** Identificar cantidades mayores, menores e iguales.

9.- TACHE el número mayor que está dentro de cada nube.

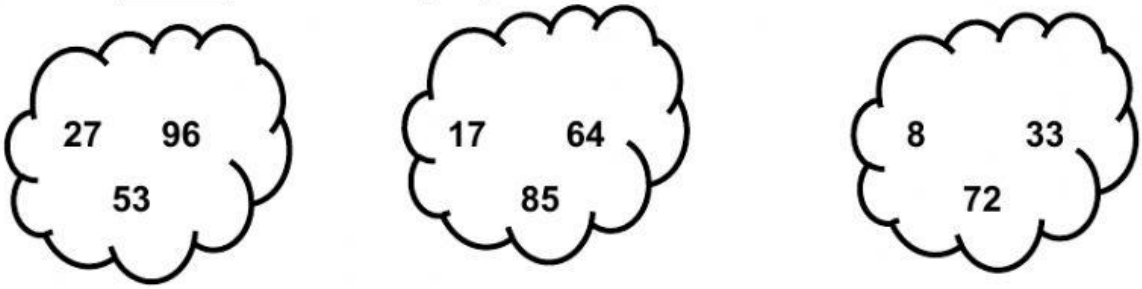

LIVEWORKSHEETS

D.C.D.: **M.2.1.24.** Resolver problemas que requieran el uso de adiciones y sustracciones sin reagrupación con los números de hasta dos cifras mentalmente, gráficamente y de manera numérica.

10.- <u>RESUELVA</u> el siguiente problema:

- Mateo tenía 67 lápices y le regala 20 lápices a su primo David. ¿Cuántos lápices le quedarón?

Datos	**Razonamiento**	**Operación**
	Para saber cuántos lápices le quedarón debemos hacer una	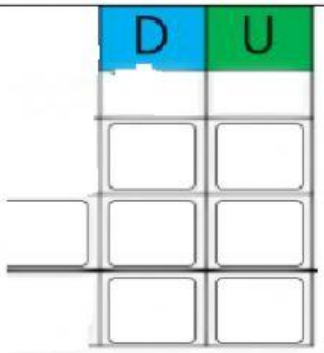

Firma		
Elaborado por: Ing. Fernanda Coello Lic. Soraya Álvarez Lic. Daysi Benavides Lic. Mirian Tabango Lic. Mónica Egas Lic. Maribel Arévalo	Coordinador@: Lic. Mirian Tabango	F……
Certificado por:	Vicerrector (e) MSc. Yina Zambrano	F……
Padre de Familia:		F……

LIVEWORKSHEETS