กราฟของฟังก์ชันกำลังสอง

ชื่อ - สกุล _____ เลขที่ _____ ม.5 / _____

คำชี้แจง :: จงจับคู่สมการกับกราฟที่กำหนดให้ต่อไปนี้

$y = (x + 3)^2 - 4$ $\quad$ $y = -(x - 2)^2 + 3$ $\quad$ $y = 2(x + 4)^2$

$y = x^2 - 2x + 3$ $\quad$ $y = -x^2 - 2x$

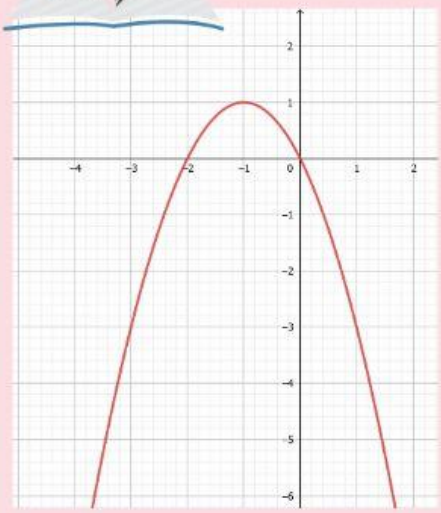

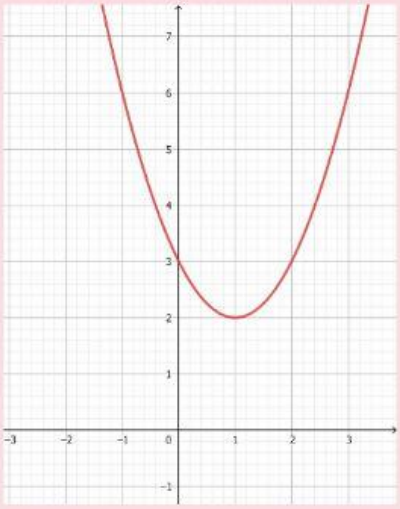

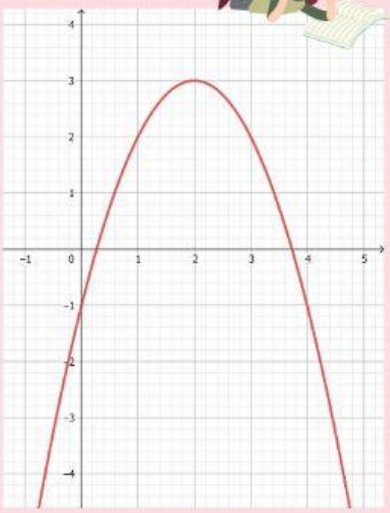

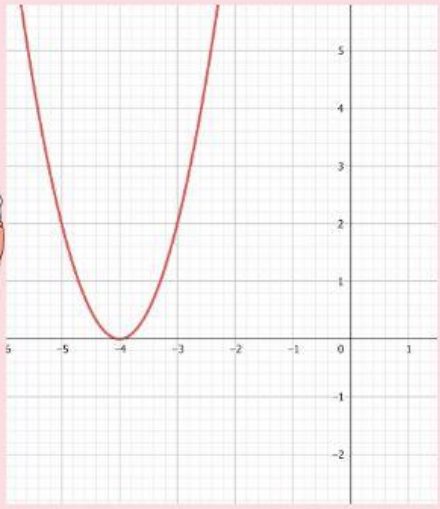

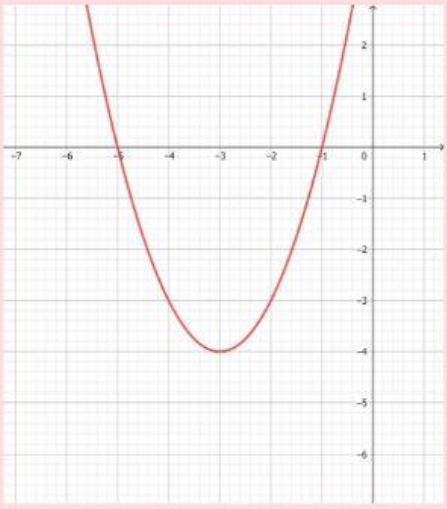

coolneung

ครูผู้สอน :: ประจักร์ สุขสะปาน

LIVEWORKSHEETS