PASATIEMPOS MATEMÁTICOS 1. RAZONAMIENTO LÓGICO

1. CALCUDOKU



2. ENCUENTRA EL VALOR.

Usa tus habilidades matemáticas para averiguar el valor de la interrogación. Para ello averigua el valor de los otros dibujos.

3. SUKO

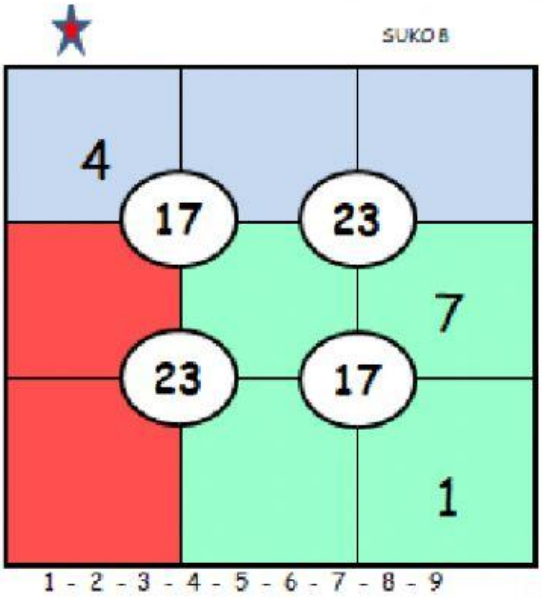



4. RETO RELOJ (LIBRO)

Tengo un reloj que se adelanta 8 minutos al día ¿Cuánto tiempo se adelanta en media hora?

LIVEWORKSHEETS

5. SOPA DECIMAL

T	T	O	S	E	R	T	O	S	A	D	E	C	I	M	A
S	I	R	C	S	I	D	A	A	N	N	O	N	O	O	X
O	M	S	E	B	Z	M	E	P	U	U	L	C	C	S	B
V	S	O	N	I	I	R	E	V	U	E	N	S	E	A	E
T	E	L	T	S	N	O	I	S	A	I	S	E	N	M	N
E	A	C	E	E	E	T	D	O	C	E	C	D	T	I	T
U	N	L	S	V	E	D	A	P	I	E	E	E	E	S	S
C	I	I	I	A	G	E	F	Y	R	A	N	C	S	E	C
M	M	G	M	R	C	A	N	T	D	R	T	I	I	T	I
E	A	R	A	E	U	R	O	M	N	O	E	M	M	N	E
C	O	C	S	S	A	M	I	C	E	D	S	A	A	E	N
N	C	E	Z	O	T	U	A	E	M	R	I	S	S	C	T
I	L	A	N	C	R	A	R	T	I	J	M	R	O	S	O
U	I	C	N	T	O	D	E	C	I	M	A	S	O	E	D
Q	E	M	I	L	E	S	I	M	A	S	S	D	Z	O	O
N	A	I	T	S	A	S	A	M	I	S	E	L	I	M	S

Busca en la sopa de letras cada uno de los números.

0.102

$\frac{32}{10}$ $\frac{2}{100}$

$\frac{1}{10}$ 0.015

~~0.12~~ ☺

0.05 $\frac{3}{100}$

1.3 $\frac{11}{1000}$ 0.4

6. KAKURO